Estimando el Ángulo

Nombre:

Resuelve cada problema.

1)

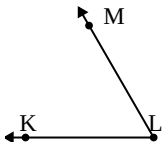

¿Que opción representa mejor ∠KLM?

A. 60°
B. 15°
C. 177°
D. 114°

2)

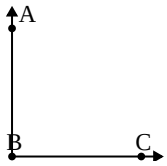

¿Que opción representa mejor ∠ABC?

A. 36°
B. 159°
C. 90°
D. 136°

3)

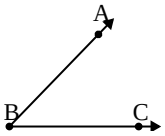

¿Que opción representa mejor ∠ABC?

A. 76°
B. 114°
C. 46°
D. 154°

4)

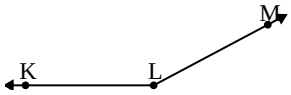

¿Que opción representa mejor ∠KLM?

A. 117°
B. 63°
C. 152°
D. 90°

5)

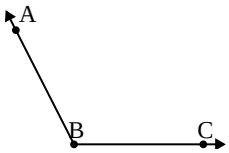

¿Que opción representa mejor ∠ABC?

A. 28°
B. 92°
C. 160°
D. 117°

6)

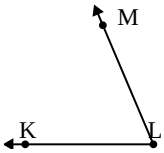

¿Que opción representa mejor ∠KLM?

A. 67°
B. 145°
C. 95°
D. 36°

7)

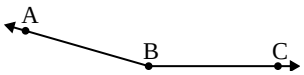

¿Que opción representa mejor ∠ABC?

A. 47°
B. 164°
C. 112°
D. 24°

8)

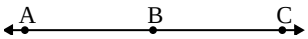

¿Que opción representa mejor ∠ABC?

A. 180°
B. 156°
C. 62°
D. 10°

9)

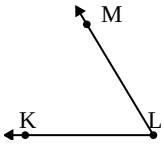

¿Que opción representa mejor ∠KLM?

A. 168°
B. 101°
C. 59°
D. 137°

Respuestas

1. _____
2. _____
3. _____
4. _____
5. _____
6. _____
7. _____
8. _____
9. _____

1-9	89	78	67	56	44	33	22	11	0

Estimando el Ángulo

Nombre: **Clave De Respuestas**

Resuelve cada problema.

1)

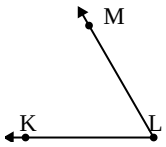

¿Que opción representa mejor ∠KLM?

A. 60°
B. 15°
C. 177°
D. 114°

2)

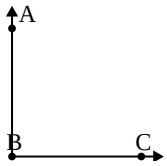

¿Que opción representa mejor ∠ABC?

A. 36°
B. 159°
C. 90°
D. 136°

3)

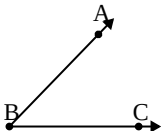

¿Que opción representa mejor ∠ABC?

A. 76°
B. 114°
C. 46°
D. 154°

4)

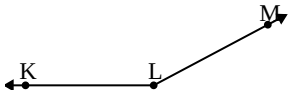

¿Que opción representa mejor ∠KLM?

A. 117°
B. 63°
C. 152°
D. 90°

5)

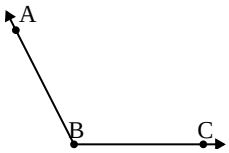

¿Que opción representa mejor ∠ABC?

A. 28°
B. 92°
C. 160°
D. 117°

6)

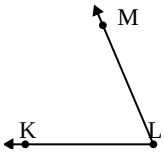

¿Que opción representa mejor ∠KLM?

A. 67°
B. 145°
C. 95°
D. 36°

7)

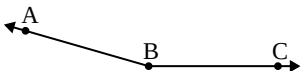

¿Que opción representa mejor ∠ABC?

A. 47°
B. 164°
C. 112°
D. 24°

8)

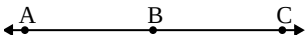

¿Que opción representa mejor ∠ABC?

A. 180°
B. 156°
C. 62°
D. 10°

9)

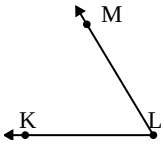

¿Que opción representa mejor ∠KLM?

A. 168°
B. 101°
C. 59°
D. 137°

Respuestas

1. **A**
2. **C**
3. **C**
4. **C**
5. **D**
6. **A**
7. **B**
8. **A**
9. **C**