Encontrar la hora de inicio con una recta numérica Nombre:

Resuelve cada problema.

1) Inicio: _____
Transcurrido: 1 hr y 30 mins
Final: 7:20

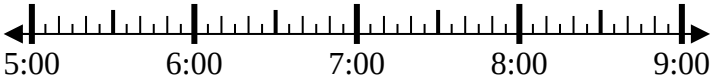

2) Inicio: _____
Transcurrido: 2 hrs y 10 mins
Final: 12:25

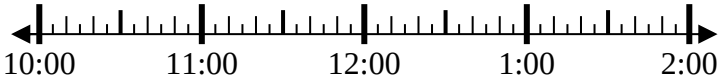

3) Inicio: _____
Transcurrido: 2 hrs y 30 mins
Final: 6:55

4) Inicio: _____
Transcurrido: 1 hr y 35 mins
Final: 9:15

5) Inicio: _____
Transcurrido: 2 hrs y 35 mins
Final: 1:55

6) Inicio: _____
Transcurrido: 1 hr y 40 mins
Final: 3:30

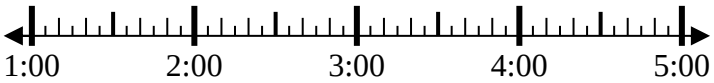

7) Inicio: _____
Transcurrido: 2 hrs y 20 mins
Final: 6:10

8) Inicio: _____
Transcurrido: 1 hr y 15 mins
Final: 3:25

Respuestas

1. _____
2. _____
3. _____
4. _____
5. _____
6. _____
7. _____
8. _____

1-8	88	75	63	50	38	25	13	0

Encontrar la hora de inicio con una recta numérica

Nombre: **Clave De Respuestas**

Resuelve cada problema.

1) Inicio: 5:50
Transcurrido: 1 hr y 30 mins
Final: 7:20

2) Inicio: 10:15
Transcurrido: 2 hrs y 10 mins
Final: 12:25

3) Inicio: 4:25
Transcurrido: 2 hrs y 30 mins
Final: 6:55

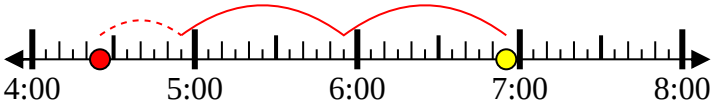

4) Inicio: 7:40
Transcurrido: 1 hr y 35 mins
Final: 9:15

5) Inicio: 11:20
Transcurrido: 2 hrs y 35 mins
Final: 1:55

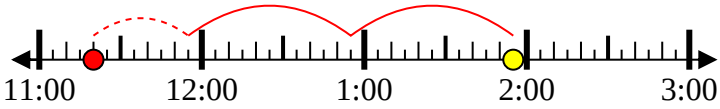

6) Inicio: 1:50
Transcurrido: 1 hr y 40 mins
Final: 3:30

7) Inicio: 3:50
Transcurrido: 2 hrs y 20 mins
Final: 6:10

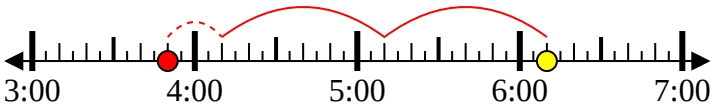

8) Inicio: 2:10
Transcurrido: 1 hr y 15 mins
Final: 3:25

Respuestas

1. **5:50**
2. **10:15**
3. **4:25**
4. **7:40**
5. **11:20**
6. **1:50**
7. **3:50**
8. **2:10**