Hallar el tiempo de finalización en una recta numérica

Nombre:

Resuelve cada problema.

1) Inicio: 1:50
Transcurrido: 1 hr y 45 mins
Final: _____

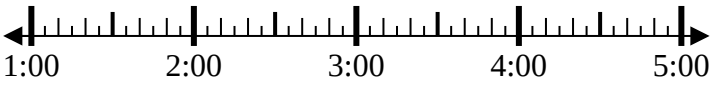

2) Inicio: 5:35
Transcurrido: 2 hrs y 10 mins
Final: _____

3) Inicio: 10:25
Transcurrido: 2 hrs y 40 mins
Final: _____

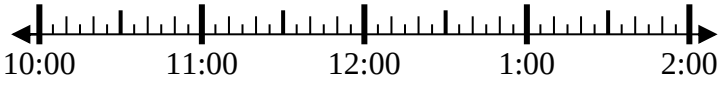

4) Inicio: 11:30
Transcurrido: 1 hr y 20 mins
Final: _____

5) Inicio: 1:45
Transcurrido: 1 hr y 50 mins
Final: _____

6) Inicio: 4:50
Transcurrido: 2 hrs y 20 mins
Final: _____

7) Inicio: 9:45
Transcurrido: 1 hr y 50 mins
Final: _____

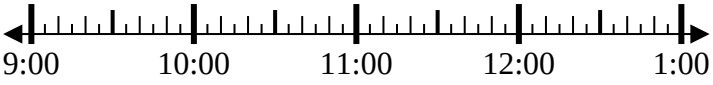

8) Inicio: 8:00
Transcurrido: 1 hr y 45 mins
Final: _____

Respuestas

1. _____
2. _____
3. _____
4. _____
5. _____
6. _____
7. _____
8. _____

1-8	88	75	63	50	38	25	13	0

Hallar el tiempo de finalización en una recta numérica

Nombre: **Clave De Respuestas**

Resuelve cada problema.

1) Inicio: 1:50
Transcurrido: 1 hr y 45 mins
Final: 3:35

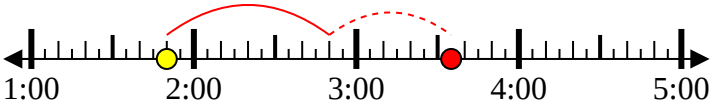

2) Inicio: 5:35
Transcurrido: 2 hrs y 10 mins
Final: 7:45

3) Inicio: 10:25
Transcurrido: 2 hrs y 40 mins
Final: 1:05

4) Inicio: 11:30
Transcurrido: 1 hr y 20 mins
Final: 12:50

5) Inicio: 1:45
Transcurrido: 1 hr y 50 mins
Final: 3:35

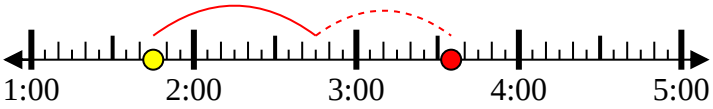

6) Inicio: 4:50
Transcurrido: 2 hrs y 20 mins
Final: 7:10

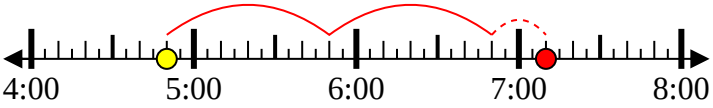

7) Inicio: 9:45
Transcurrido: 1 hr y 50 mins
Final: 11:35

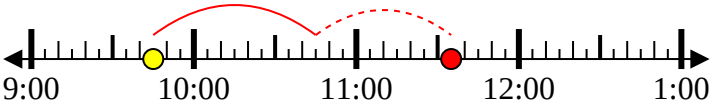

8) Inicio: 8:00
Transcurrido: 1 hr y 45 mins
Final: 9:45

Respuestas

1. 3:35
2. 7:45
3. 1:05
4. 12:50
5. 3:35
6. 7:10
7. 11:35
8. 9:45