Igualando Termómetros con Temperatura

Nombre:

Determinar cuál letra responde mejor a cada pregunta.

1) ¿Qué termómetro representa mejor 53° de temperatura?

2) ¿Qué termómetro representa mejor 35° de temperatura?

3) ¿Qué termómetro representa mejor 27° de temperatura?

4) ¿Qué termómetro representa mejor 29° de temperatura?

5) ¿Qué termómetro representa mejor 33° de temperatura?

6) ¿Qué termómetro representa mejor 42° de temperatura?

7) ¿Qué termómetro representa mejor 21° de temperatura?

8) ¿Qué termómetro representa mejor 79° de temperatura?

9) ¿Qué termómetro representa mejor 41° de temperatura?

10) ¿Qué termómetro representa mejor 78° de temperatura?

A.

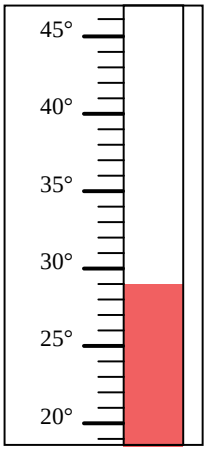

B.

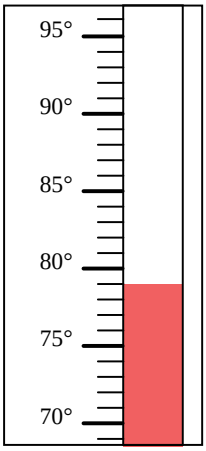

C.

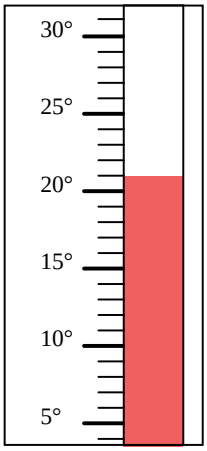

D.

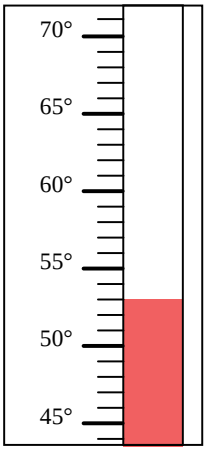

E.

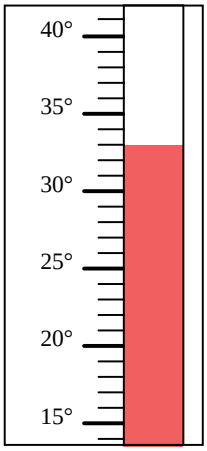

F.

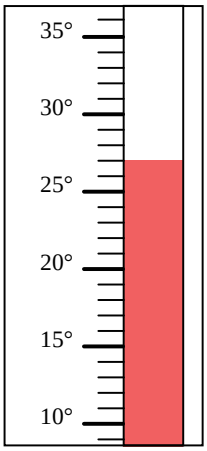

G.

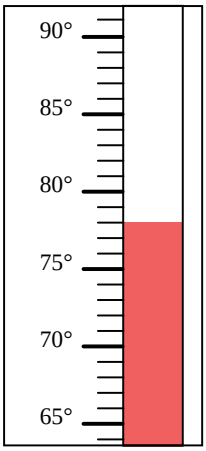

H.

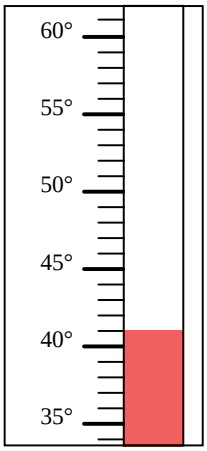

I.

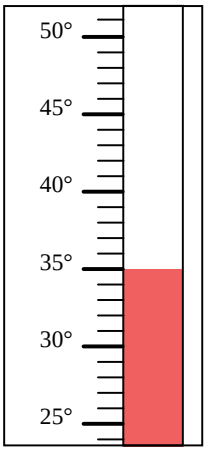

J.

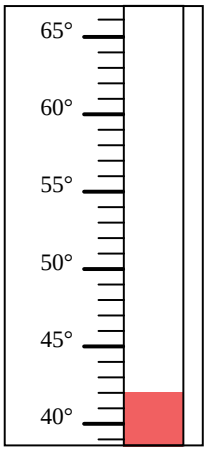

Respuestas

1. _____
2. _____
3. _____
4. _____
5. _____
6. _____
7. _____
8. _____
9. _____
10. _____

1-10	90	80	70	60	50	40	30	20	10	0

Igualando Termómetros con Temperatura

Nombre: **Clave De Respuestas**

Determinar cuál letra responde mejor a cada pregunta.

1) ¿Qué termómetro representa mejor 53° de temperatura?

2) ¿Qué termómetro representa mejor 35° de temperatura?

3) ¿Qué termómetro representa mejor 27° de temperatura?

4) ¿Qué termómetro representa mejor 29° de temperatura?

5) ¿Qué termómetro representa mejor 33° de temperatura?

6) ¿Qué termómetro representa mejor 42° de temperatura?

7) ¿Qué termómetro representa mejor 21° de temperatura?

8) ¿Qué termómetro representa mejor 79° de temperatura?

9) ¿Qué termómetro representa mejor 41° de temperatura?

10) ¿Qué termómetro representa mejor 78° de temperatura?

A.

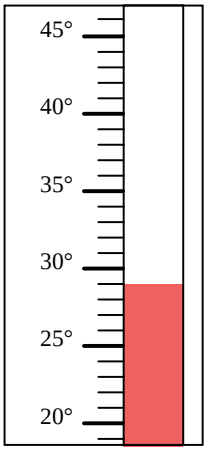

B.

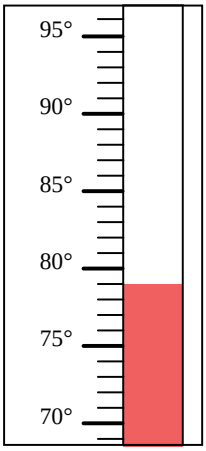

C.

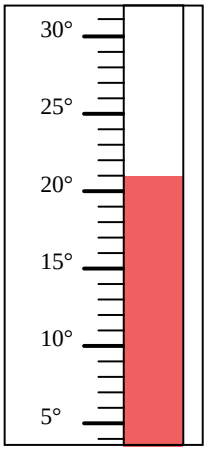

D.

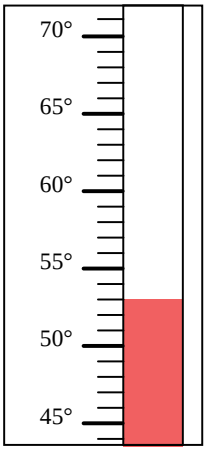

E.

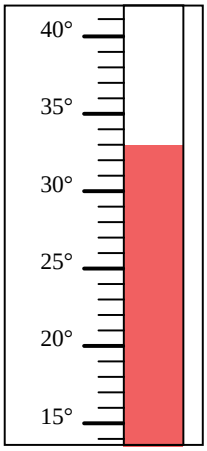

F.

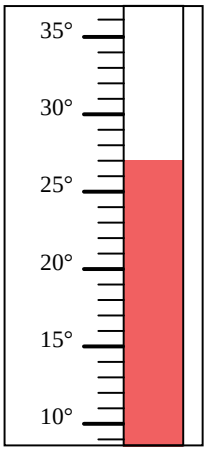

G.

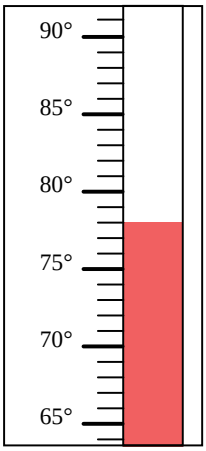

H.

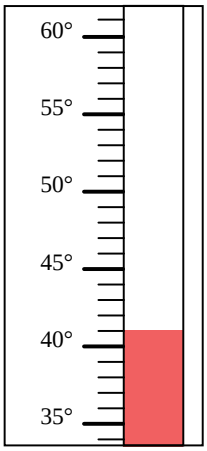

I.

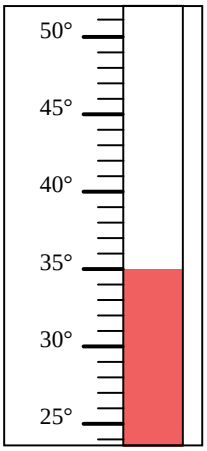

J.

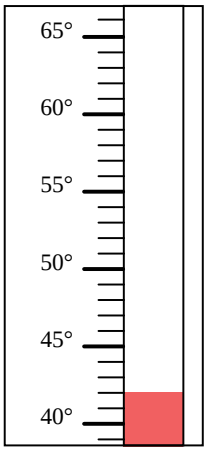

Respuestas

1. D
2. I
3. F
4. A
5. E
6. J
7. C
8. B
9. H
10. G

1-10	90	80	70	60	50	40	30	20	10	0