Restando visualmente

Nombre:

Utilizar el modelo visual para resolver cada problema.

1) Hay 15 triangulos debajo.

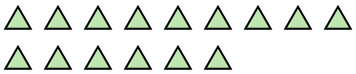

Si se quitaran 13, ¿cuántos quedarían?
15 - 13 = ?

2) Hay 3 estrellas debajo.

Si se quitaran 1, ¿cuántos quedarían?
3 - 1 = ?

3) Hay 4 cuadros debajo.

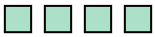

Si se quitaran 1, ¿cuántos quedarían?
4 - 1 = ?

4) Hay 7 pentagonos debajo.

Si se quitaran 4, ¿cuántos quedarían?
7 - 4 = ?

5) Hay 20 rectangulos debajo.

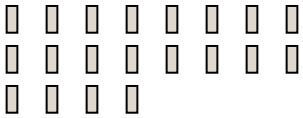

Si se quitaran 7, ¿cuántos quedarían?
20 - 7 = ?

6) Hay 6 rectangulos debajo.

Si se quitaran 5, ¿cuántos quedarían?
6 - 5 = ?

7) Hay 19 hexagonos debajo.

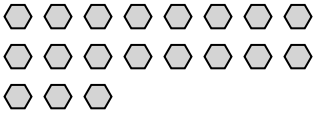

Si se quitaran 2, ¿cuántos quedarían?
19 - 2 = ?

8) Hay 7 estrellas debajo.

Si se quitaran 5, ¿cuántos quedarían?
7 - 5 = ?

9) Hay 14 cuadros debajo.



Si se quitaran 13, ¿cuántos quedarían?
14 - 13 = ?

10) Hay 9 hexagonos debajo.

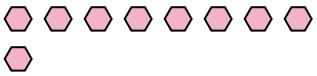

Si se quitaran 3, ¿cuántos quedarían?
9 - 3 = ?

Respuestas

1. _____
2. _____
3. _____
4. _____
5. _____
6. _____
7. _____
8. _____
9. _____
10. _____

Restando visualmente

Nombre: **Clave De Respuestas**

Utilizar el modelo visual para resolver cada problema.

1) Hay 15 triangulos debajo.

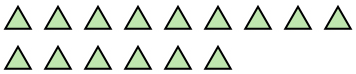

Si se quitaran 13, ¿cuántos quedarían?
15 - 13 = ?

2) Hay 3 estrellas debajo.

Si se quitaran 1, ¿cuántos quedarían?
3 - 1 = ?

3) Hay 4 cuadros debajo.

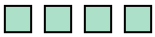

Si se quitaran 1, ¿cuántos quedarían?
4 - 1 = ?

4) Hay 7 pentagonos debajo.

Si se quitaran 4, ¿cuántos quedarían?
7 - 4 = ?

5) Hay 20 rectangulos debajo.

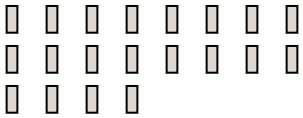

Si se quitaran 7, ¿cuántos quedarían?
20 - 7 = ?

6) Hay 6 rectangulos debajo.

Si se quitaran 5, ¿cuántos quedarían?
6 - 5 = ?

7) Hay 19 hexagonos debajo.

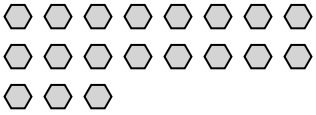

Si se quitaran 2, ¿cuántos quedarían?
19 - 2 = ?

8) Hay 7 estrellas debajo.

Si se quitaran 5, ¿cuántos quedarían?
7 - 5 = ?

9) Hay 14 cuadros debajo.



Si se quitaran 13, ¿cuántos quedarían?
14 - 13 = ?

10) Hay 9 hexagonos debajo.

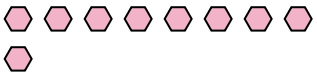

Si se quitaran 3, ¿cuántos quedarían?
9 - 3 = ?

Respuestas

1. 2
2. 2
3. 3
4. 3
5. 13
6. 1
7. 17
8. 2
9. 1
10. 6

1-10	90	80	70	60	50	40	30	20	10	0