Comparando dos medidas Nombre:

Medir el ancho y alto de cada bloque en pulgadas y en centímetros

Ej)

1)



2)



3)

4)

Respuestas

Ej.	$3\frac{1}{2}$	$1\frac{1}{2}$	8.9	3.8
1.	___	___	___	___
2.	___	___	___	___
3.	___	___	___	___
4.	___	___	___	___

1-4	75	50	25	0

Medir el ancho y alto de cada bloque en pulgadas y en centímetros

Ej)

1)



2)



3)

4)

Respuestas

Ej.	$3\frac{1}{2}$	$1\frac{1}{2}$	8.9	3.8
1.	2	$1\frac{1}{2}$	5.1	3.8
2.	4	$1\frac{1}{2}$	10.2	3.8
3.	$5\frac{1}{2}$	$0\frac{1}{2}$	14	1.3
4.	3	1	7.6	2.5