Resuelve cada problema.

Utilice el gráfico de la derecha para encontrar lo siguiente (si es posible):

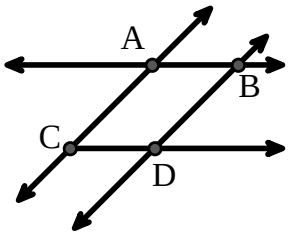

1) Líneas secantes _____

2) Lineas paralelas _____

3) Una línea _____

4) Lineas perpendiculares _____

5) Un rayo _____

6) Un segmento _____

Utilice el gráfico de la derecha para encontrar lo siguiente (si es posible):

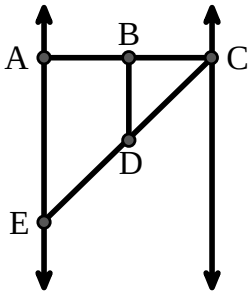

7) Ángulo recto _____

8) Ángulo agudo _____

9) Ángulo recto _____

10) Ángulo obtuso _____

Utilice la matriz de puntos para dibujar lo siguiente:



11) Line $\overleftrightarrow{AC}$

12) Segment $\overline{AB}$

13) Angle $\angle ABD$

14) Line $\overleftrightarrow{EF}$ parallel to line $\overleftrightarrow{AC}$

15) Segment $\overline{EG}$ perpendicular to $\overleftrightarrow{EF}$

Respuestas

1. _____
2. _____
3. _____
4. _____
5. _____
6. _____
7. _____
8. _____
9. _____
10. _____
11. gráfica
12. gráfica
13. gráfica
14. gráfica
15. gráfica

1-10	93	87	80	73	67	60	53	47	40	33
11-15	27	20	13	7	0					

Resuelve cada problema.

Utilice el gráfico de la derecha para encontrar lo siguiente (si es posible):

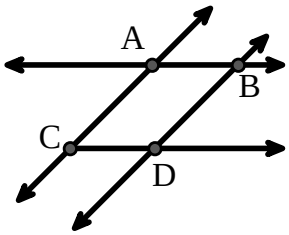

1) Líneas secantes $(\overleftrightarrow{AB}\ \&\overleftrightarrow{AC}),(\overleftrightarrow{AB}\ \&\overleftrightarrow{BD})$

2) Lineas paralelas $(\overleftrightarrow{A}\ \&\overleftrightarrow{B}),(\overleftrightarrow{A}\ \&\overleftrightarrow{C}),(\overleftrightarrow{B}\ \&\overleftrightarrow{D}),(\overleftrightarrow{C}\ \&\overleftrightarrow{D})$

3) Una línea $\overleftrightarrow{AC}, \overleftrightarrow{AB}, \overleftrightarrow{BD}$

4) Lineas perpendiculares _____

5) Un rayo $\overrightarrow{AB}, \overrightarrow{AC}, \overrightarrow{BA}, \overrightarrow{BD}, \overrightarrow{CA}, \overrightarrow{CD}, \overrightarrow{DB}$

6) Un segmento $\overline{AB}, \overline{AC}, \overline{BD}, \overline{CD}$

Utilice el gráfico de la derecha para encontrar lo siguiente (si es posible):

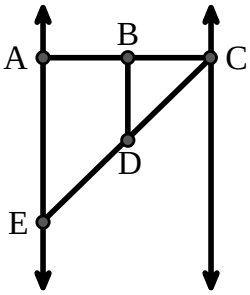

7) Ángulo recto $\angle BAE, \angle ABD, \angle CBD$

8) Ángulo agudo $\angle BCD, \angle AED, \angle BDC$

9) Ángulo recto $\angle ABC, \angle CDE$

10) Ángulo obtuso $\angle BDE$

Utilice la matriz de puntos para dibujar lo siguiente:



11) Line $\overleftrightarrow{AC}$

12) Segment $\overline{AB}$

13) Angle $\angle ABD$

14) Line $\overleftrightarrow{EF}$ parallel to line $\overleftrightarrow{AC}$

15) Segment $\overline{EG}$ perpendicular to $\overleftrightarrow{EF}$

Respuestas

1. $(\overleftrightarrow{AB}\ \&\overleftrightarrow{AC})$
2. $(\overleftrightarrow{A}\ \&\overleftrightarrow{B})$
3. $\overleftrightarrow{AC}$
4. **ninguna**
5. $\overrightarrow{AB}$
6. $\overline{AB}$
7. $\angle BAE$
8. $\angle BCD$
9. $\angle ABC$
10. $\angle BDE$
11. **gráfica**
12. **gráfica**
13. **gráfica**
14. **gráfica**
15. **gráfica**

1-10	93	87	80	73	67	60	53	47	40	33
11-15	27	20	13	7	0					