Examinar gráficas Nombre:

Determina qué afirmaciones sobre la gráfica son verdaderas.

Respuestas

1. _____

2. _____

3. _____

1)

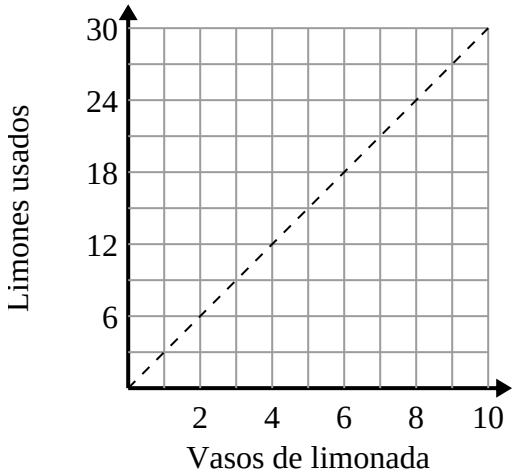

A. El punto (3 , 1) muestra que para hacer 1 vasos de limonada se necesitarán 3 limones.

B. El punto (7 , 21) muestra que para hacer 7 vasos de limonada se necesitarán 21 limones.

C. El punto (9 , 27) muestra que para hacer 9 vasos de limonada se necesitarán 27 limones.

D. El punto (15 , 5) muestra que para hacer 5 vasos de limonada se necesitarán 15 limones.

2)

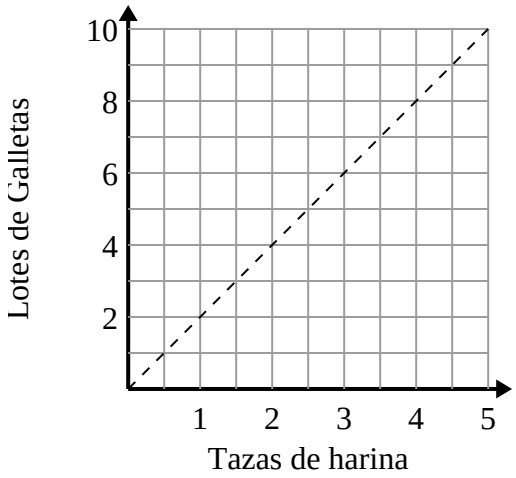

A. El punto (2 , 1) muestra que los 2 lotes de galletas requieren 1 tazas de harina.

B. El punto (9 , 4.5) muestra que 4.5 tazas de harina harán 9 lotes de galletas.

C. El punto (1 , 2) muestra que 1 tazas de harina harán 2 lotes de galletas.

D. El punto (7 , 3.5) muestra que los 7 lotes de galletas requieren 3.5 tazas de harina.

3)

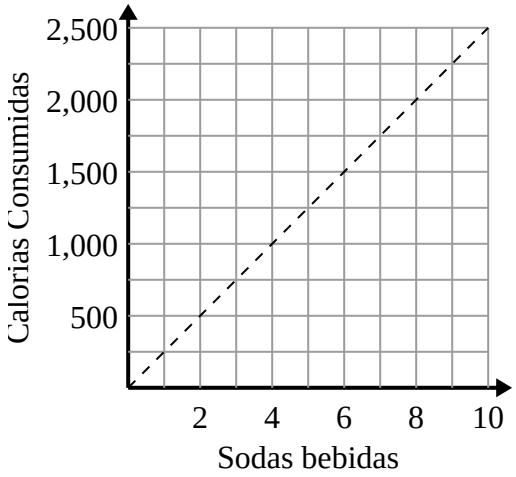

A. El punto (4 , 1000) muestra que al beber 4 refrescos significará que consumió 1000 calorías.

B. El punto (6 , 1500) muestra que para consumir 1500 calorías tendrías que beber 6 refrescos.

C. El punto (5 , 1250) muestra que al beber 5 refrescos significará que consumió 1250 calorías.

D. El punto (250 , 1) muestra que al beber 1 refrescos significará que consumió 250 calorías.

Determina qué afirmaciones sobre la gráfica son verdaderas.

1)

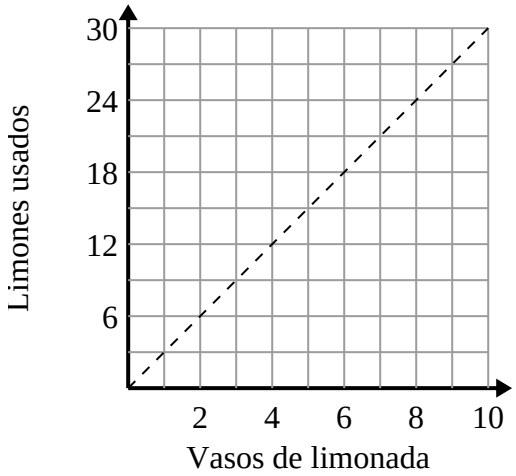

A. El punto (3 , 1) muestra que para hacer 1 vasos de limonada se necesitarán 3 limones.

B. El punto (7 , 21) muestra que para hacer 7 vasos de limonada se necesitarán 21 limones.

C. El punto (9 , 27) muestra que para hacer 9 vasos de limonada se necesitarán 27 limones.

D. El punto (15 , 5) muestra que para hacer 5 vasos de limonada se necesitarán 15 limones.

2)

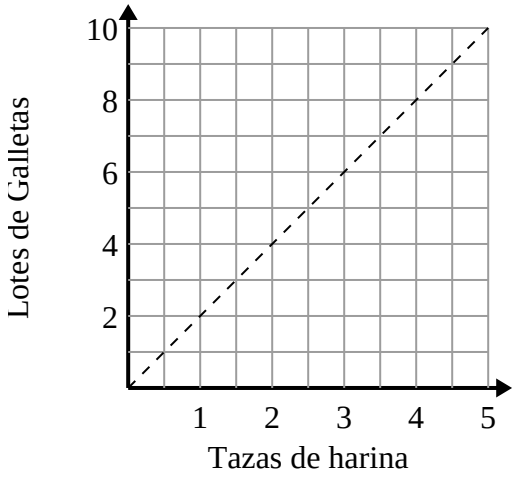

A. El punto (2 , 1) muestra que los 2 lotes de galletas requieren 1 tazas de harina.

B. El punto (9 , 4.5) muestra que 4.5 tazas de harina harán 9 lotes de galletas.

C. El punto (1 , 2) muestra que 1 tazas de harina harán 2 lotes de galletas.

D. El punto (7 , 3.5) muestra que los 7 lotes de galletas requieren 3.5 tazas de harina.

3)

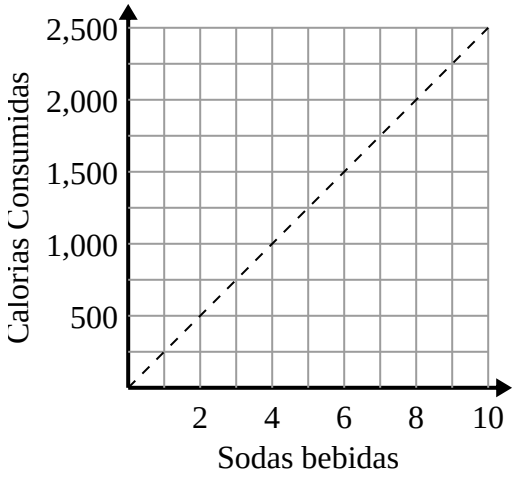

A. El punto (4 , 1000) muestra que al beber 4 refrescos significará que consumió 1000 calorías.

B. El punto (6 , 1500) muestra que para consumir 1500 calorías tendrías que beber 6 refrescos.

C. El punto (5 , 1250) muestra que al beber 5 refrescos significará que consumió 1250 calorías.

D. El punto (250 , 1) muestra que al beber 1 refrescos significará que consumió 250 calorías.

Respuestas

1. **B,C**
2. **C**
3. **A,B,C**