Ubicación de la Fracción en la Línea Numérica

Nombre:

Resuelve cada problema.

Ej)

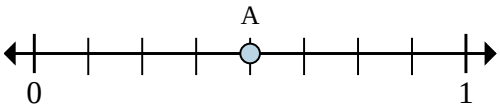

a. ¿Entre cuantas piezas se divide esta recta numérica?

b. ¿Cuál es la ubicación de A (escrito como una fracción)?

1)

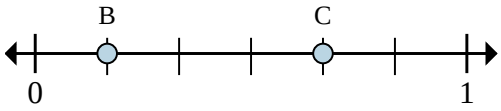

a. En esta recta numérica ¿cuál es el valor de 0 escrito como una fracción?

b. En esta recta numérica que tan lejos esta B de C (escrito como una fracción)?

2)

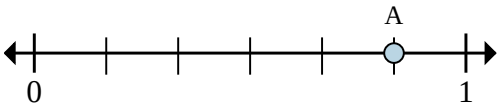

a. ¿Entre cuantas piezas se divide esta recta numérica?

b. ¿Cuál es la ubicación de A (escrito como una fracción)?

3)

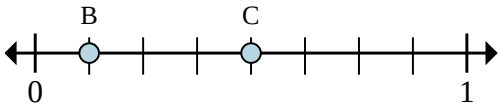

a. En esta recta numérica ¿cuál es el valor de 1 escrito como una fracción?

b. En esta recta numérica que tan lejos esta B de C (escrito como una fracción)?

4)

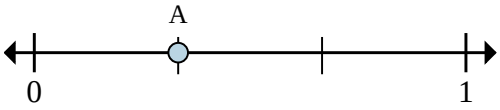

a. ¿Entre cuantas piezas se divide esta recta numérica?

b. ¿Cuál es la ubicación de A (escrito como una fracción)?

5)

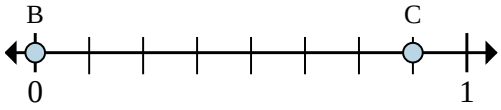

a. En esta recta numérica ¿cuál es el valor de 1 escrito como una fracción?

b. En esta recta numérica que tan lejos esta B de C (escrito como una fracción)?

6)

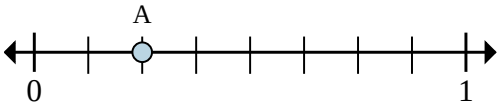

a. ¿Entre cuantas piezas se divide esta recta numérica?

b. ¿Cuál es la ubicación de A (escrito como una fracción)?

7)

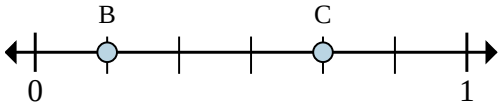

a. En esta recta numérica ¿cuál es el valor de 0 escrito como una fracción?

b. En esta recta numérica que tan lejos esta B de C (escrito como una fracción)?

Respuestas

Ej.	8	$\frac{4}{8}$
1.		
2.		
3.		
4.		
5.		
6.		
7.		

Ubicación de la Fracción en la Línea Numérica

Nombre: **Clave De Respuestas**

Resuelve cada problema.

Ej)

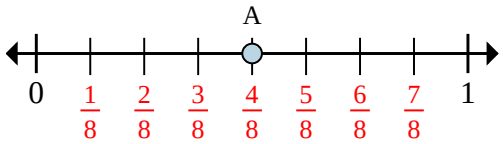

a. ¿Entre cuantas piezas se divide esta recta numérica?

b. ¿Cuál es la ubicación de A (escrito como una fracción)?

1)

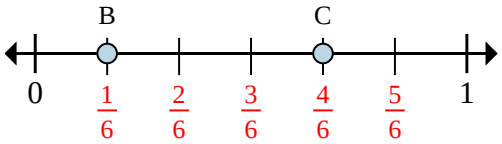

a. En esta recta numérica ¿cuál es el valor de 0 escrito como una fracción?

b. En esta recta numérica que tan lejos esta B de C (escrito como una fracción)?

2)

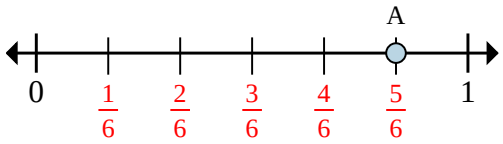

a. ¿Entre cuantas piezas se divide esta recta numérica?

b. ¿Cuál es la ubicación de A (escrito como una fracción)?

3)

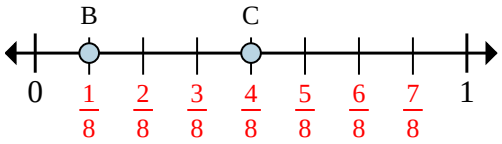

a. En esta recta numérica ¿cuál es el valor de 1 escrito como una fracción?

b. En esta recta numérica que tan lejos esta B de C (escrito como una fracción)?

4)

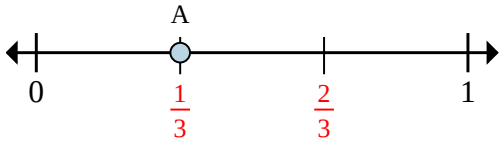

a. ¿Entre cuantas piezas se divide esta recta numérica?

b. ¿Cuál es la ubicación de A (escrito como una fracción)?

5)

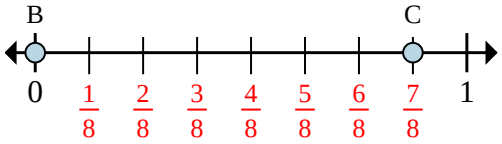

a. En esta recta numérica ¿cuál es el valor de 1 escrito como una fracción?

b. En esta recta numérica que tan lejos esta B de C (escrito como una fracción)?

6)

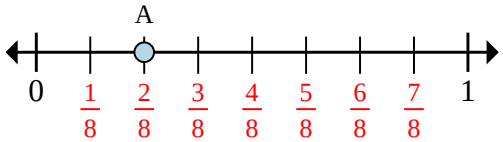

a. ¿Entre cuantas piezas se divide esta recta numérica?

b. ¿Cuál es la ubicación de A (escrito como una fracción)?

7)

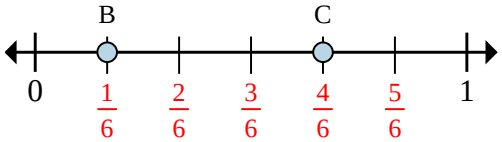

a. En esta recta numérica ¿cuál es el valor de 0 escrito como una fracción?

b. En esta recta numérica que tan lejos esta B de C (escrito como una fracción)?

Respuestas

Ej.	8	4/8
1.	0/6	3/6
2.	6	5/6
3.	8/8	3/8
4.	3	1/3
5.	8/8	7/8
6.	8	2/8
7.	0/6	3/6