Ubicación de la Fracción en la Línea Numérica

Nombre:

Resuelve cada problema.

Ej)

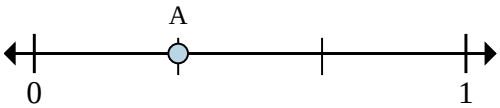

a. ¿Entre cuantas piezas se divide esta recta numérica?

b. ¿Cuál es la ubicación de A (escrito como una fracción)?

1)

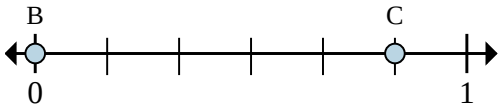

a. En esta recta numérica ¿cuál es el valor de 1 escrito como una fracción?

b. En esta recta numérica que tan lejos esta B de C (escrito como una fracción)?

2)

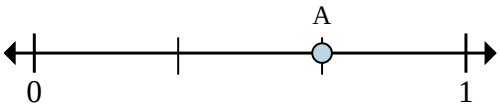

a. ¿Entre cuantas piezas se divide esta recta numérica?

b. ¿Cuál es la ubicación de A (escrito como una fracción)?

3)

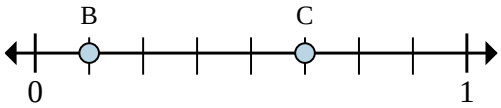

a. En esta recta numérica ¿cuál es el valor de 0 escrito como una fracción?

b. En esta recta numérica que tan lejos esta B de C (escrito como una fracción)?

4)

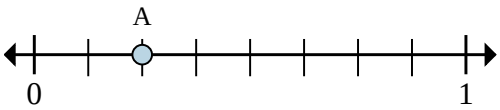

a. ¿Entre cuantas piezas se divide esta recta numérica?

b. ¿Cuál es la ubicación de A (escrito como una fracción)?

5)

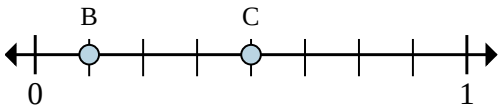

a. En esta recta numérica ¿cuál es el valor de 1 escrito como una fracción?

b. En esta recta numérica que tan lejos esta B de C (escrito como una fracción)?

6)

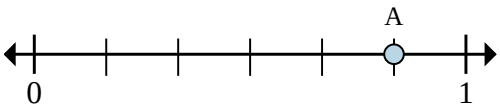

a. ¿Entre cuantas piezas se divide esta recta numérica?

b. ¿Cuál es la ubicación de A (escrito como una fracción)?

7)

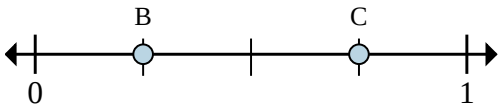

a. En esta recta numérica ¿cuál es el valor de 1 escrito como una fracción?

b. En esta recta numérica que tan lejos esta B de C (escrito como una fracción)?

Respuestas

Ej.	3	$\frac{1}{3}$
1.		
2.		
3.		
4.		
5.		
6.		
7.		

1-7	86	71	57	43	29	14	0

Resuelve cada problema.

Ej)

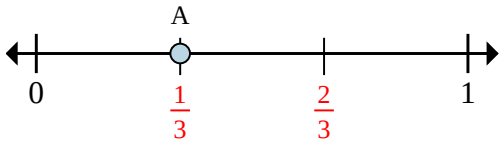

a. ¿Entre cuantas piezas se divide esta recta numérica?

b. ¿Cuál es la ubicación de A (escrito como una fracción)?

1)

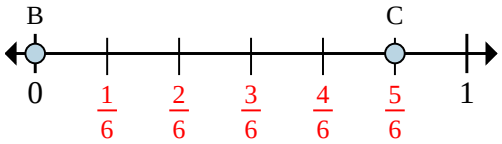

a. En esta recta numérica ¿cuál es el valor de 1 escrito como una fracción?

b. En esta recta numérica que tan lejos esta B de C (escrito como una fracción)?

2)

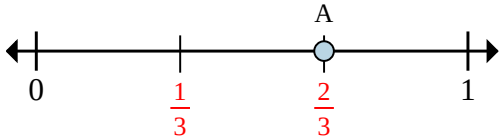

a. ¿Entre cuantas piezas se divide esta recta numérica?

b. ¿Cuál es la ubicación de A (escrito como una fracción)?

3)

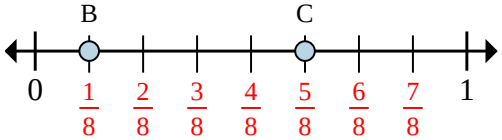

a. En esta recta numérica ¿cuál es el valor de 0 escrito como una fracción?

b. En esta recta numérica que tan lejos esta B de C (escrito como una fracción)?

4)

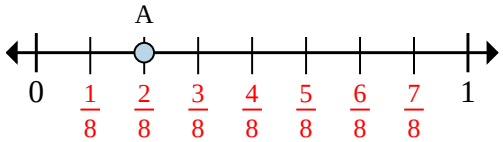

a. ¿Entre cuantas piezas se divide esta recta numérica?

b. ¿Cuál es la ubicación de A (escrito como una fracción)?

5)

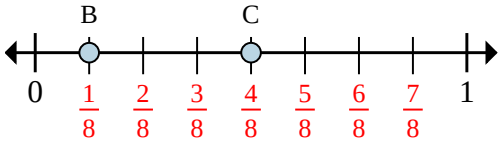

a. En esta recta numérica ¿cuál es el valor de 1 escrito como una fracción?

b. En esta recta numérica que tan lejos esta B de C (escrito como una fracción)?

6)

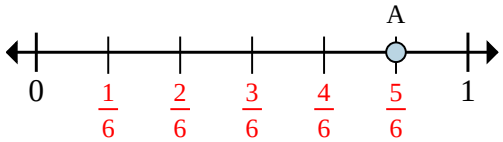

a. ¿Entre cuantas piezas se divide esta recta numérica?

b. ¿Cuál es la ubicación de A (escrito como una fracción)?

7)

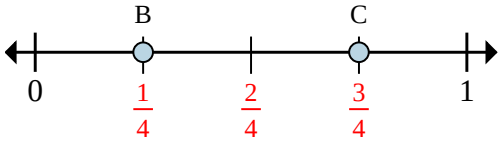

a. En esta recta numérica ¿cuál es el valor de 1 escrito como una fracción?

b. En esta recta numérica que tan lejos esta B de C (escrito como una fracción)?

Respuestas

Ej.	3	1/3
1.	6/6	5/6
2.	3	2/3
3.	0/8	4/8
4.	8	2/8
5.	8/8	3/8
6.	6	5/6
7.	4/4	2/4

1-7	86	71	57	43	29	14	0