Nombrando Fracciones

Nombre:

Determina cuál letra mejor describe a la porción sombreada.

1)

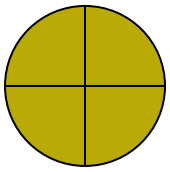

A. dos mitades
B. tres cuartos
C. una mitad

2)



A. un cuarto
B. dos cuartos
C. dos mitades

3)



A. dos mitades
B. dos cuartos
C. tres cuartos

4)

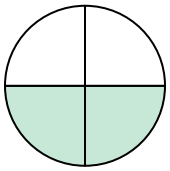

A. dos cuartos
B. un cuarto
C. una mitad

5)

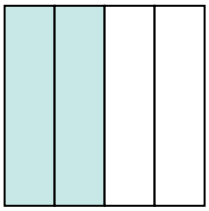

A. cuatro cuartos
B. tres cuartos
C. dos cuartos

6)



A. una mitad
B. dos mitades
C. tres cuartos

7)



A. una mitad
B. un cuarto
C. dos mitades

8)

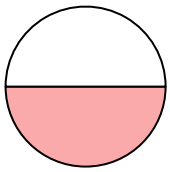

A. una mitad
B. un cuarto
C. dos cuartos

9)

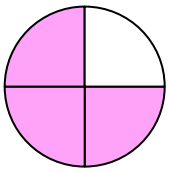

A. tres cuartos
B. un cuarto
C. cuatro cuartos

Respuestas

1. _____
2. _____
3. _____
4. _____
5. _____
6. _____
7. _____
8. _____
9. _____

1-9	89	78	67	56	44	33	22	11	0

Nombre: **Clave De Respuestas**

Determina cuál letra mejor describe a la porción sombreada.

1)

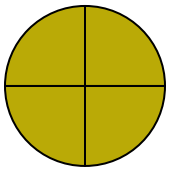

A. dos mitades
B. tres cuartos
C. una mitad

2)



A. un cuarto
B. dos cuartos
C. dos mitades

3)



A. dos mitades
B. dos cuartos
C. tres cuartos

4)

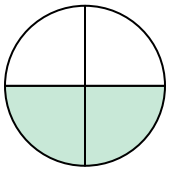

A. dos cuartos
B. un cuarto
C. una mitad

5)

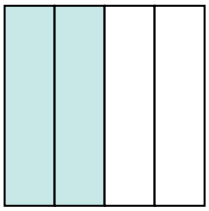

A. cuatro cuartos
B. tres cuartos
C. dos cuartos

6)



A. una mitad
B. dos mitades
C. tres cuartos

7)



A. una mitad
B. un cuarto
C. dos mitades

8)

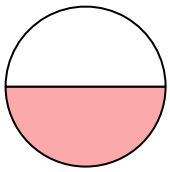

A. una mitad
B. un cuarto
C. dos cuartos

9)

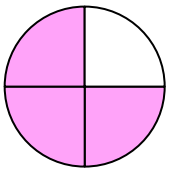

A. tres cuartos
B. un cuarto
C. cuatro cuartos

Respuestas

1. **B**
2. **C**
3. **C**
4. **A**
5. **C**
6. **A**
7. **C**
8. **A**
9. **A**

1-9	89	78	67	56	44	33	22	11	0