Identificar fracciones y decimales en un círculo numérico

Nombre:

Resuelve cada problema.

1) ¿Qué opción representa la parte no sombreada de la rueda numérica?

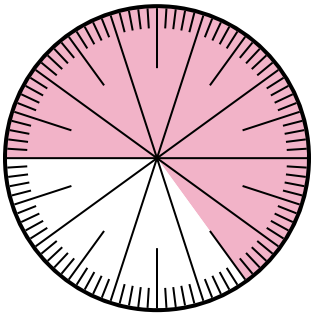

A. 0.35 B. $^{0.35}/_{100}$

C. 0.035 D. 3.50

2) ¿Qué opción representa la parte no sombreada de la rueda numérica?

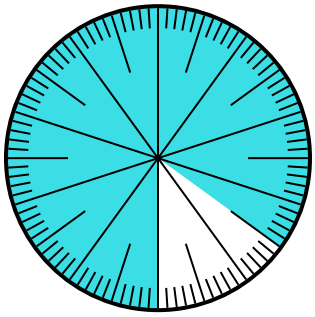

A. $^{15}/_{100}$ B. 1.50

C. $^{85}/_{15}$ D. 15

3) ¿Qué opción representa la parte no sombreada de la rueda numérica?

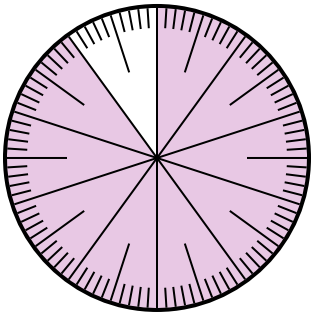

A. $^{1}/_{100}$ B. 0.1

C. 1 D. 10

4) ¿Qué opción representa la parte sombreada de la rueda numérica?



A. $^{70}/_{100}$ B. $^{70}/_{30}$

C. $^{30}/_{70}$ D. $^{7.00}/_{100}$

5) ¿Qué opción representa la parte no sombreada de la rueda numérica?

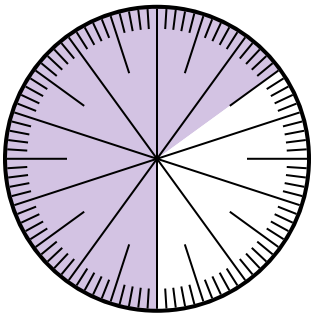

A. $^{65}/_{35}$ B. $^{35}/_{100}$

C. 0.035 D. $^{3.5}/_{100}$

6) ¿Qué opción representa la parte sombreada de la rueda numérica?

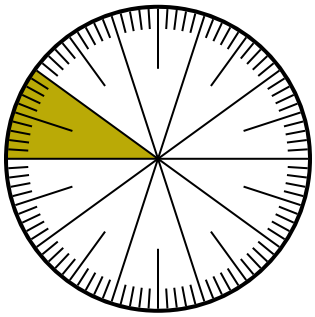

A. $^{1.00}/_{100}$ B. $^{90}/_{10}$

C. 10 D. $^{10}/_{100}$

Respuestas

1. _____
2. _____
3. _____
4. _____
5. _____
6. _____

1-6	83	67	50	33	17	0

Identificar fracciones y decimales en un círculo numérico Nombre: **Clave De Respuestas**

Resuelve cada problema.

1) ¿Qué opción representa la parte no sombreada de la rueda numérica?

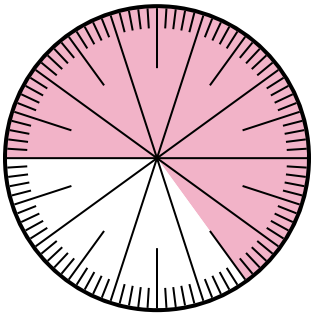

A. 0.35 B. $^{0.35}/_{100}$

C. 0.035 D. 3.50

2) ¿Qué opción representa la parte no sombreada de la rueda numérica?

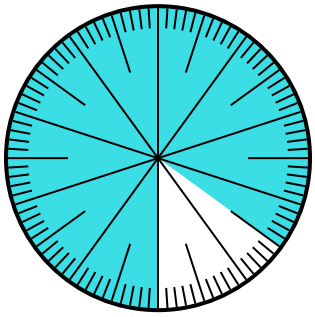

A. $^{15}/_{100}$ B. 1.50

C. $^{85}/_{15}$ D. 15

3) ¿Qué opción representa la parte no sombreada de la rueda numérica?

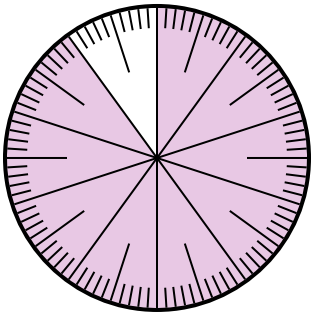

A. $^{1}/_{100}$ B. 0.1

C. 1 D. 10

4) ¿Qué opción representa la parte sombreada de la rueda numérica?



A. $^{70}/_{100}$ B. $^{70}/_{30}$

C. $^{30}/_{70}$ D. $^{7.00}/_{100}$

5) ¿Qué opción representa la parte no sombreada de la rueda numérica?

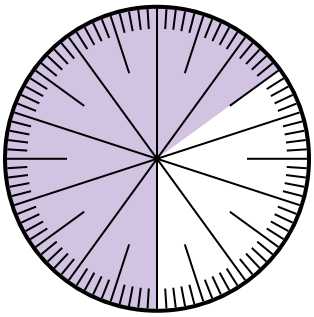

A. $^{65}/_{35}$ B. $^{35}/_{100}$

C. 0.035 D. $^{3.5}/_{100}$

6) ¿Qué opción representa la parte sombreada de la rueda numérica?

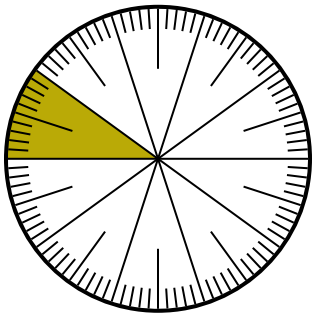

A. $^{1.00}/_{100}$ B. $^{90}/_{10}$

C. 10 D. $^{10}/_{100}$

Respuestas

1. **A**
2. **A**
3. **B**
4. **A**
5. **B**
6. **D**

1-6	83	67	50	33	17	0

Identificar fracciones y decimales en un círculo numérico

Nombre:

Resuelve cada problema.

1) ¿Qué opción representa la parte no sombreada de la rueda numérica?

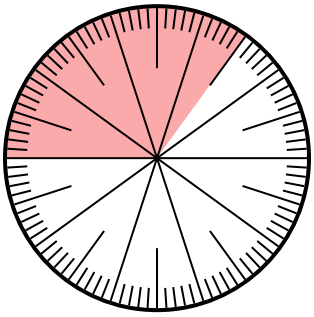

A. $^{65}/_{100}$ B. $^{6.5}/_{100}$

C. $^{35}/_{65}$ D. $^{6.50}/_{100}$

2) ¿Qué opción representa la parte sombreada de la rueda numérica?

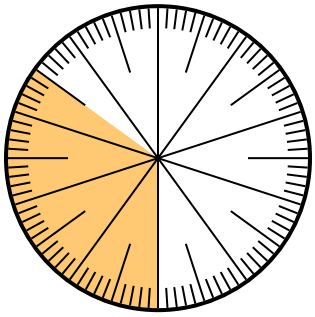

A. 3.50 B. 0.035

C. $^{3.5}/_{100}$ D. 0.35

3) ¿Qué opción representa la parte sombreada de la rueda numérica?

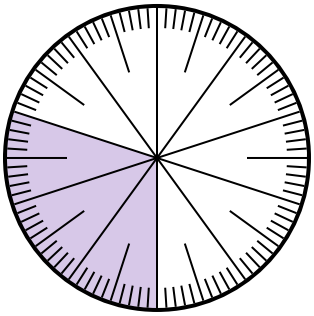

A. $^{30}/_{10}$ B. 0.3

C. 30.0 D. 3.0

4) ¿Qué opción representa la parte no sombreada de la rueda numérica?

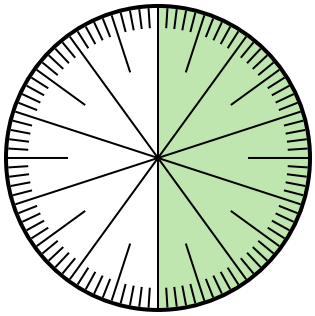

A. 0.50 B. $^{0.5}/_{100}$

C. 5 D. 50

5) ¿Qué opción representa la parte sombreada de la rueda numérica?

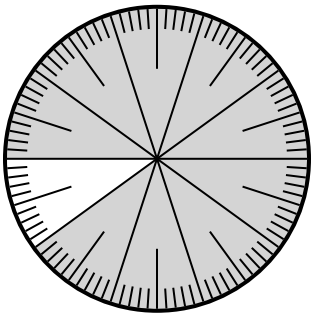

A. $^{90}/_{100}$ B. 0.090

C. 90 D. $^{9}/_{100}$

6) ¿Qué opción representa la parte sombreada de la rueda numérica?

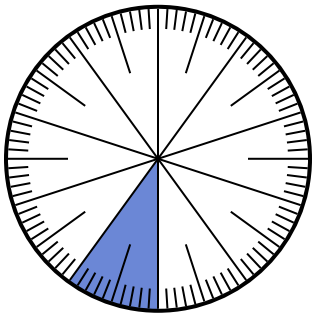

A. 0.10 B. 10

C. $^{0.1}/_{100}$ D. $^{1.00}/_{100}$

Respuestas

1. _____
2. _____
3. _____
4. _____
5. _____
6. _____

1-6	83	67	50	33	17	0

Resuelve cada problema.

1) ¿Qué opción representa la parte no sombreada de la rueda numérica?

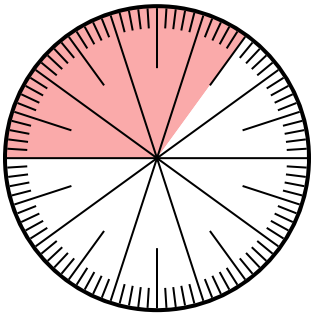

A. $^{65}/_{100}$ B. $^{6.5}/_{100}$

C. $^{35}/_{65}$ D. $^{6.50}/_{100}$

2) ¿Qué opción representa la parte sombreada de la rueda numérica?

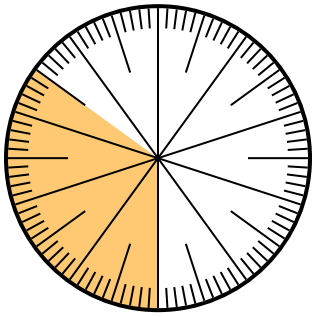

A. 3.50 B. 0.035

C. $^{3.5}/_{100}$ D. 0.35

3) ¿Qué opción representa la parte sombreada de la rueda numérica?

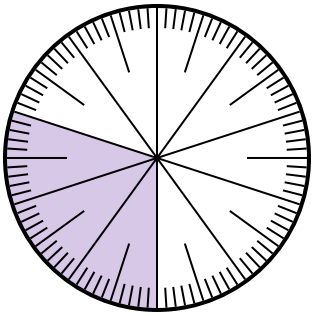

A. $^{30}/_{10}$ B. 0.3

C. 30.0 D. 3.0

4) ¿Qué opción representa la parte no sombreada de la rueda numérica?

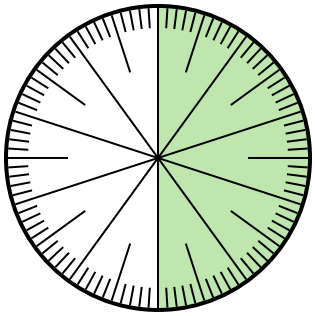

A. 0.50 B. $^{0.5}/_{100}$

C. 5 D. 50

5) ¿Qué opción representa la parte sombreada de la rueda numérica?

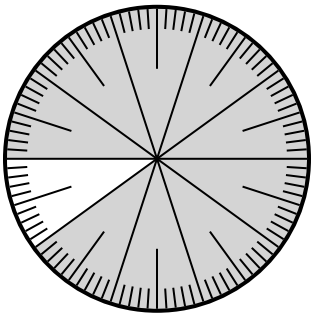

A. $^{90}/_{100}$ B. 0.090

C. 90 D. $^{9}/_{100}$

6) ¿Qué opción representa la parte sombreada de la rueda numérica?

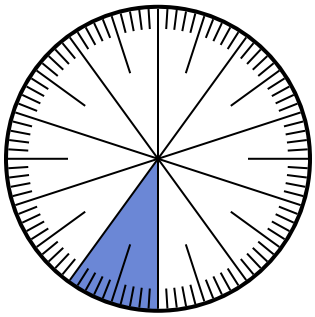

A. 0.10 B. 10

C. $^{0.1}/_{100}$ D. $^{1.00}/_{100}$

Respuestas

1. **A**
2. **D**
3. **B**
4. **A**
5. **A**
6. **A**

1-6	83	67	50	33	17	0

Identificar fracciones y decimales en un círculo numérico

Nombre:

Resuelve cada problema.

1) ¿Qué opción representa la parte sombreada de la rueda numérica?

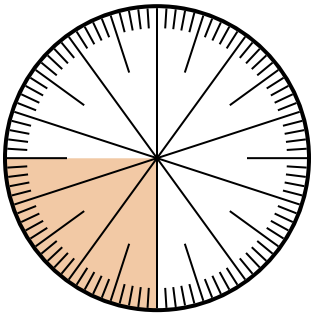

A. $^{25}/_{75}$ B. $^{0.25}/_{100}$

C. $^{25}/_{100}$ D. 2.50

2) ¿Qué opción representa la parte sombreada de la rueda numérica?

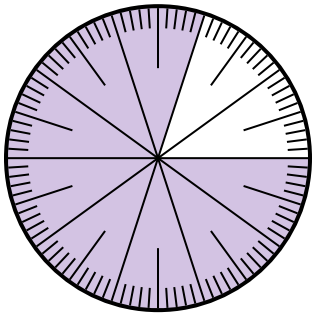

A. $^{8}/_{100}$ B. 0.080

C. $^{0.8}/_{100}$ D. $^{80}/_{100}$

3) ¿Qué opción representa la parte no sombreada de la rueda numérica?

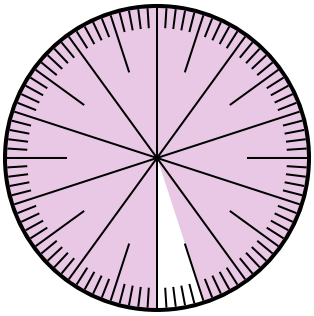

A. $^{5}/_{100}$ B. 0.5

C. $^{95}/_{5}$ D. $^{5}/_{95}$

4) ¿Qué opción representa la parte no sombreada de la rueda numérica?

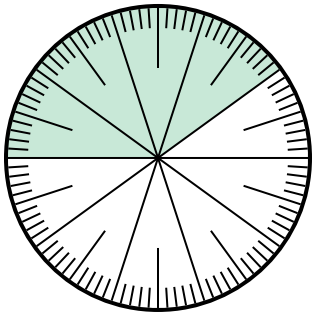

A. $^{0.6}/_{100}$ B. 0.60

C. $^{40}/_{60}$ D. 6.00

5) ¿Qué opción representa la parte sombreada de la rueda numérica?

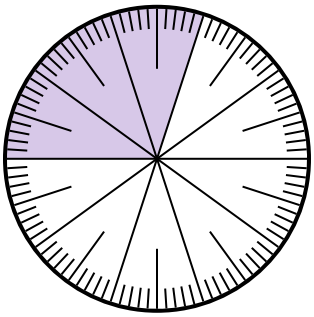

A. 3 B. 0.30

C. 30 D. $^{30}/_{70}$

6) ¿Qué opción representa la parte sombreada de la rueda numérica?

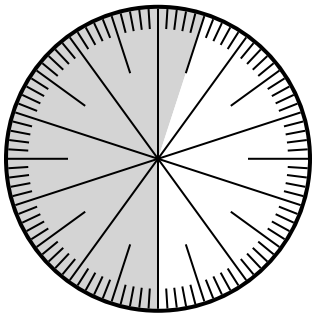

A. $^{55}/_{100}$ B. 45

C. 5.5 D. 45.0

Respuestas

1. _____
2. _____
3. _____
4. _____
5. _____
6. _____

1-6	83	67	50	33	17	0

Resuelve cada problema.

1) ¿Qué opción representa la parte sombreada de la rueda numérica?

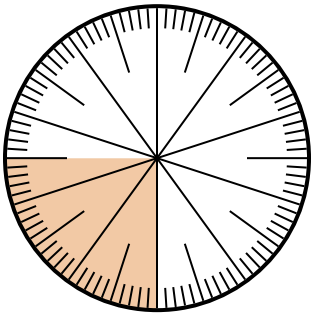

A. $^{25}/_{75}$ B. $^{0.25}/_{100}$

C. $^{25}/_{100}$ D. 2.50

2) ¿Qué opción representa la parte sombreada de la rueda numérica?

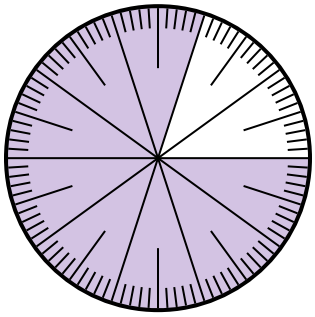

A. $^{8}/_{100}$ B. 0.080

C. $^{0.8}/_{100}$ D. $^{80}/_{100}$

3) ¿Qué opción representa la parte no sombreada de la rueda numérica?

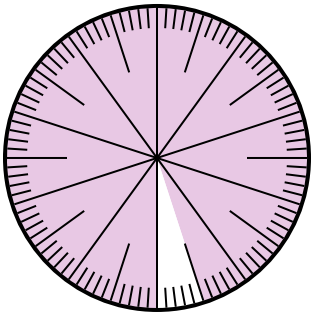

A. $^{5}/_{100}$ B. 0.5

C. $^{95}/_{5}$ D. $^{5}/_{95}$

4) ¿Qué opción representa la parte no sombreada de la rueda numérica?

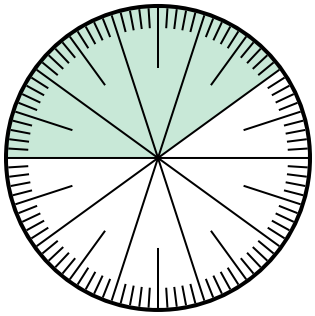

A. $^{0.6}/_{100}$ B. 0.60

C. $^{40}/_{60}$ D. 6.00

5) ¿Qué opción representa la parte sombreada de la rueda numérica?

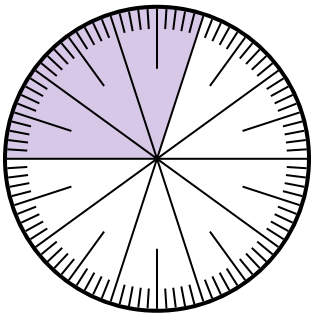

A. 3 B. 0.30

C. 30 D. $^{30}/_{70}$

6) ¿Qué opción representa la parte sombreada de la rueda numérica?

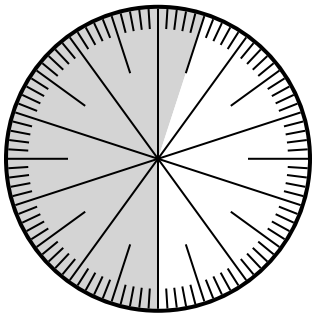

A. $^{55}/_{100}$ B. 45

C. 5.5 D. 45.0

Respuestas

1. C
2. D
3. A
4. B
5. B
6. A

1-6	83	67	50	33	17	0

Identificar fracciones y decimales en un círculo numérico

Nombre:

Resuelve cada problema.

1) ¿Qué opción representa la parte no sombreada de la rueda numérica?

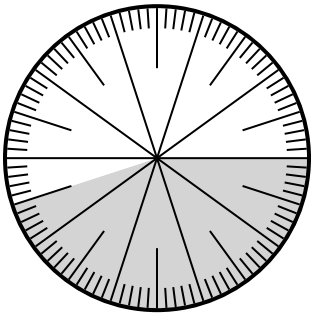

A. $^{55}/_{100}$ B. 5.5

C. 5.50 D. $^{0.55}/_{100}$

2) ¿Qué opción representa la parte no sombreada de la rueda numérica?

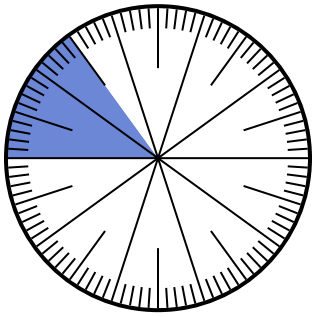

A. $^{15}/_{85}$ B. 0.85

C. 85 D. $^{85}/_{15}$

3) ¿Qué opción representa la parte sombreada de la rueda numérica?



A. $^{0.1}/_{100}$ B. 0.0010

C. 0.1 D. 1.00

4) ¿Qué opción representa la parte sombreada de la rueda numérica?

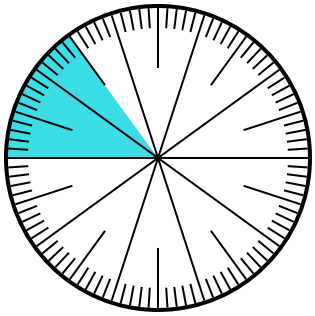

A. 8.50 B. 0.015

C. 0.15 D. 15

5) ¿Qué opción representa la parte sombreada de la rueda numérica?

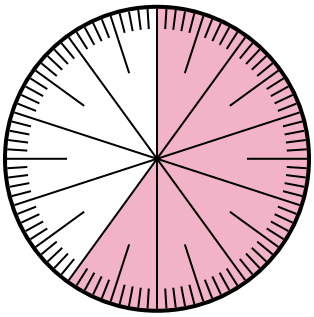

A. $^{60}/_{100}$ B. 6.00

C. 0.0060 D. 60.0

6) ¿Qué opción representa la parte sombreada de la rueda numérica?

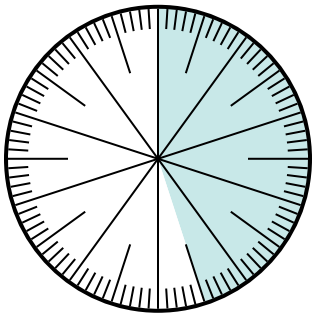

A. $^{4.5}/_{100}$ B. $^{0.45}/_{100}$

C. $^{45}/_{100}$ D. $^{45}/_{55}$

Respuestas

1. _____
2. _____
3. _____
4. _____
5. _____
6. _____

1-6	83	67	50	33	17	0

Resuelve cada problema.

1) ¿Qué opción representa la parte no sombreada de la rueda numérica?

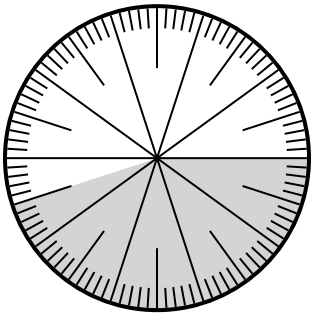

A. $^{55}/_{100}$ B. 5.5

C. 5.50 D. $^{0.55}/_{100}$

2) ¿Qué opción representa la parte no sombreada de la rueda numérica?

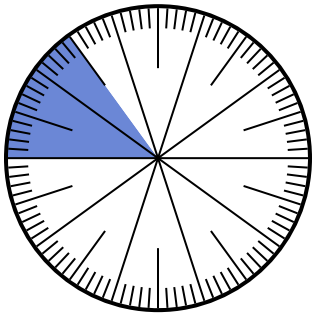

A. $^{15}/_{85}$ B. 0.85

C. 85 D. $^{85}/_{15}$

3) ¿Qué opción representa la parte sombreada de la rueda numérica?



A. $^{0.1}/_{100}$ B. 0.0010

C. 0.1 D. 1.00

4) ¿Qué opción representa la parte sombreada de la rueda numérica?

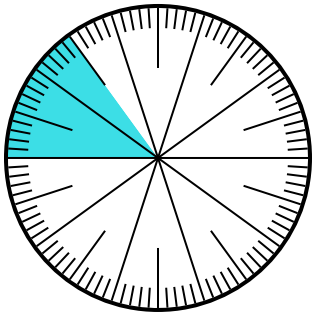

A. 8.50 B. 0.015

C. 0.15 D. 15

5) ¿Qué opción representa la parte sombreada de la rueda numérica?

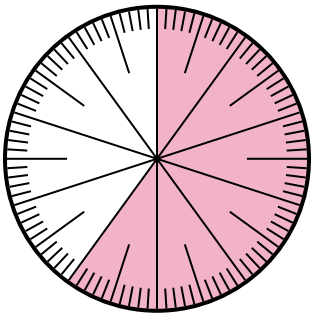

A. $^{60}/_{100}$ B. 6.00

C. 0.0060 D. 60.0

6) ¿Qué opción representa la parte sombreada de la rueda numérica?

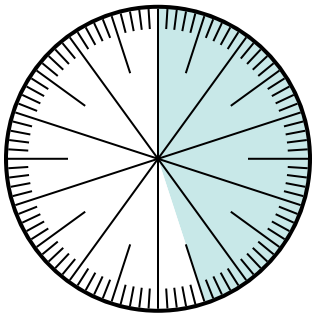

A. $^{4.5}/_{100}$ B. $^{0.45}/_{100}$

C. $^{45}/_{100}$ D. $^{45}/_{55}$

Respuestas

1. **A**
2. **B**
3. **C**
4. **C**
5. **A**
6. **C**

1-6	83	67	50	33	17	0

Identificar fracciones y decimales en un círculo numérico

Nombre:

Resuelve cada problema.

1) ¿Qué opción representa la parte sombreada de la rueda numérica?

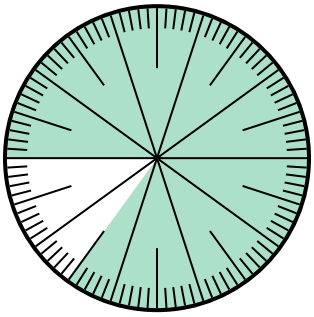

A. 0.85 B. 8.5
C. 85 D. 0.085

2) ¿Qué opción representa la parte no sombreada de la rueda numérica?

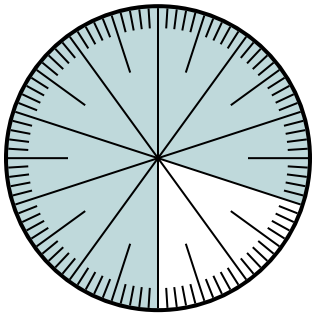

A. $^{2}/_{100}$ B. $^{20}/_{100}$
C. $^{2.00}/_{100}$ D. $^{80}/_{20}$

3) ¿Qué opción representa la parte no sombreada de la rueda numérica?

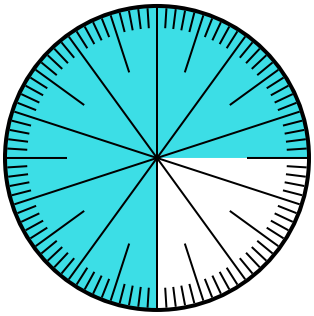

A. 0.025 B. 0.25
C. 0.0075 D. 2.50

4) ¿Qué opción representa la parte sombreada de la rueda numérica?

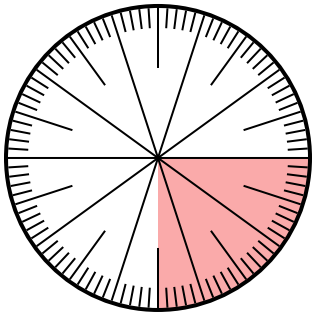

A. $^{0.25}/_{100}$ B. $^{25}/_{100}$
C. 0.025 D. 25

5) ¿Qué opción representa la parte sombreada de la rueda numérica?

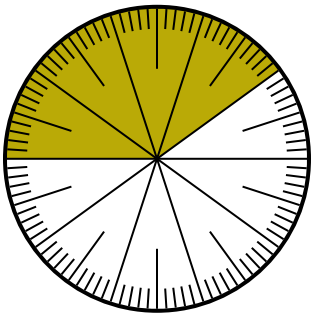

A. $^{40}/_{60}$ B. $^{60}/_{40}$
C. $^{40}/_{100}$ D. $^{4}/_{100}$

6) ¿Qué opción representa la parte sombreada de la rueda numérica?

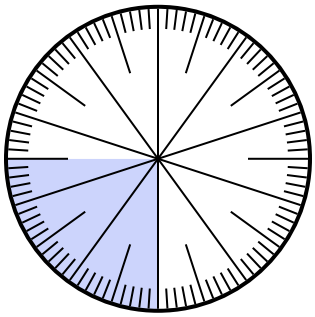

A. 0.0075 B. $^{2.50}/_{100}$
C. 0.025 D. 0.25

Respuestas

1. _____
2. _____
3. _____
4. _____
5. _____
6. _____

1-6	83	67	50	33	17	0

Resuelve cada problema.

1) ¿Qué opción representa la parte sombreada de la rueda numérica?

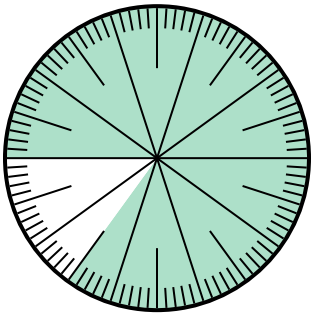

A. 0.85 B. 8.5
C. 85 D. 0.085

2) ¿Qué opción representa la parte no sombreada de la rueda numérica?

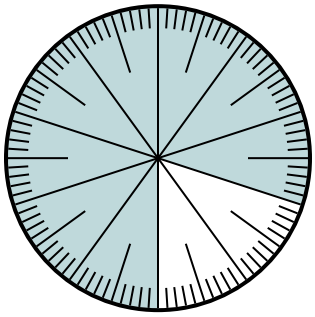

A. $^{2}/_{100}$ B. $^{20}/_{100}$
C. $^{2.00}/_{100}$ D. $^{80}/_{20}$

3) ¿Qué opción representa la parte no sombreada de la rueda numérica?

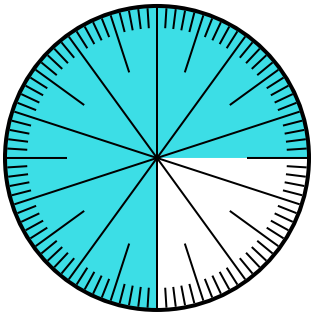

A. 0.025 B. 0.25
C. 0.0075 D. 2.50

4) ¿Qué opción representa la parte sombreada de la rueda numérica?

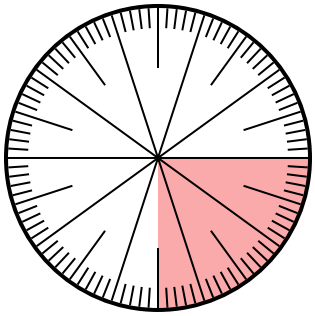

A. $^{0.25}/_{100}$ B. $^{25}/_{100}$
C. 0.025 D. 25

5) ¿Qué opción representa la parte sombreada de la rueda numérica?

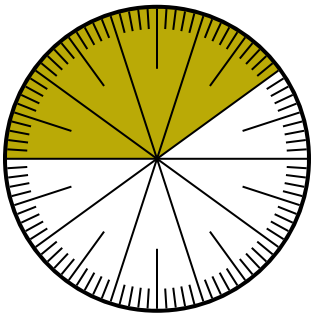

A. $^{40}/_{60}$ B. $^{60}/_{40}$
C. $^{40}/_{100}$ D. $^{4}/_{100}$

6) ¿Qué opción representa la parte sombreada de la rueda numérica?

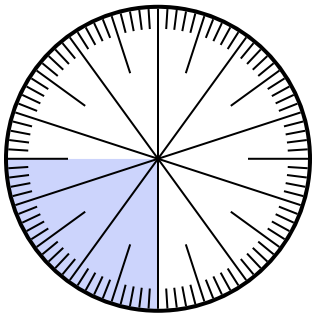

A. 0.0075 B. $^{2.50}/_{100}$
C. 0.025 D. 0.25

Respuestas

1. **A**
2. **B**
3. **B**
4. **B**
5. **C**
6. **D**

1-6	83	67	50	33	17	0

Identificar fracciones y decimales en un círculo numérico

Nombre:

Resuelve cada problema.

1) ¿Qué opción representa la parte sombreada de la rueda numérica?

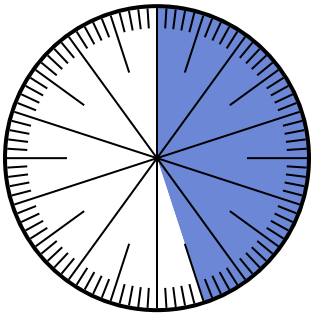

A. $^{45}/_{100}$ B. $^{55}/_{45}$

C. $^{45}/_{55}$ D. $^{4.5}/_{100}$

2) ¿Qué opción representa la parte sombreada de la rueda numérica?

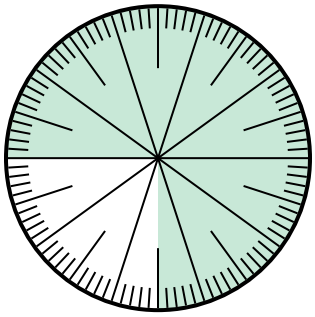

A. $^{0.75}/_{100}$ B. 0.75

C. $^{7.50}/_{100}$ D. $^{7.5}/_{100}$

3) ¿Qué opción representa la parte sombreada de la rueda numérica?

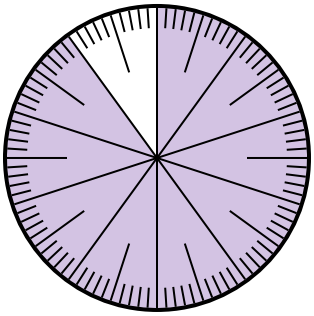

A. 90 B. 0.090

C. $^{90}/_{100}$ D. $^{9}/_{100}$

4) ¿Qué opción representa la parte no sombreada de la rueda numérica?

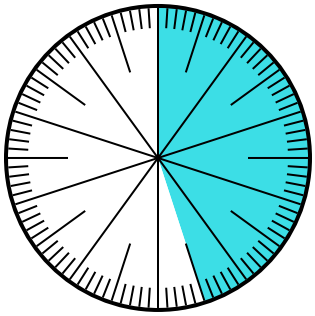

A. 5.5 B. 55

C. $^{5.5}/_{100}$ D. $^{55}/_{100}$

5) ¿Qué opción representa la parte no sombreada de la rueda numérica?

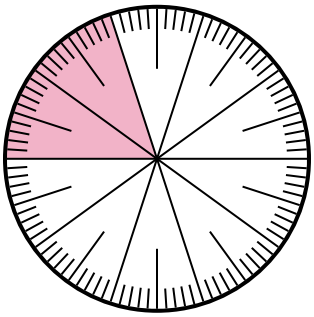

A. $^{20}/_{80}$ B. 0.80

C. $^{8}/_{100}$ D. 8

6) ¿Qué opción representa la parte no sombreada de la rueda numérica?

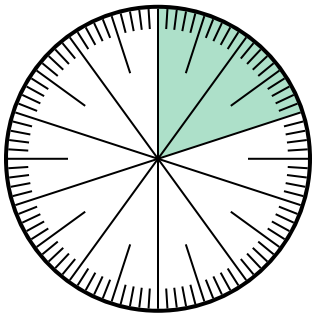

A. 80 B. 8

C. $^{0.8}/_{100}$ D. $^{80}/_{100}$

Respuestas

1. _____
2. _____
3. _____
4. _____
5. _____
6. _____

1-6	83	67	50	33	17	0

Resuelve cada problema.

1) ¿Qué opción representa la parte sombreada de la rueda numérica?

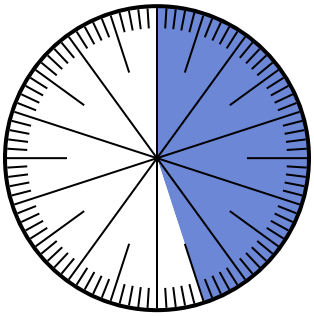

A. $^{45}/_{100}$ B. $^{55}/_{45}$

C. $^{45}/_{55}$ D. $^{4.5}/_{100}$

2) ¿Qué opción representa la parte sombreada de la rueda numérica?

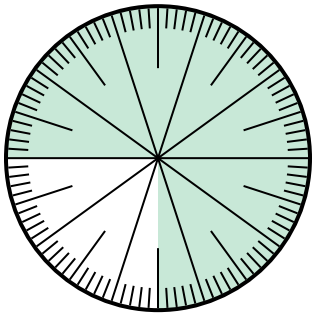

A. $^{0.75}/_{100}$ B. 0.75

C. $^{7.50}/_{100}$ D. $^{7.5}/_{100}$

3) ¿Qué opción representa la parte sombreada de la rueda numérica?

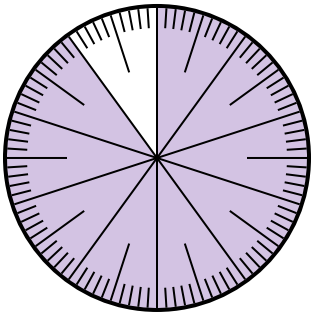

A. 90 B. 0.090

C. $^{90}/_{100}$ D. $^{9}/_{100}$

4) ¿Qué opción representa la parte no sombreada de la rueda numérica?

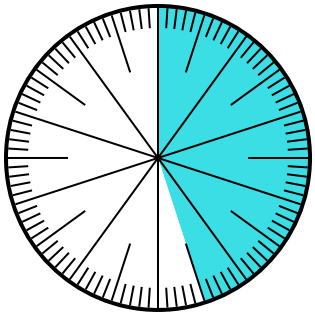

A. 5.5 B. 55

C. $^{5.5}/_{100}$ D. $^{55}/_{100}$

5) ¿Qué opción representa la parte no sombreada de la rueda numérica?

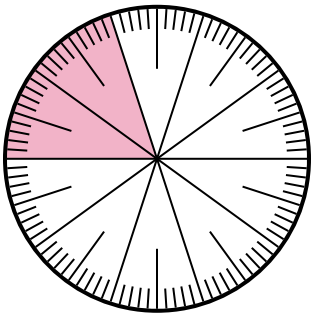

A. $^{20}/_{80}$ B. 0.80

C. $^{8}/_{100}$ D. 8

6) ¿Qué opción representa la parte no sombreada de la rueda numérica?

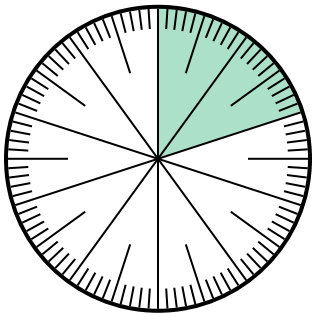

A. 80 B. 8

C. $^{0.8}/_{100}$ D. $^{80}/_{100}$

Respuestas

1. **A**
2. **B**
3. **C**
4. **D**
5. **B**
6. **D**

1-6	83	67	50	33	17	0

Identificar fracciones y decimales en un círculo numérico

Nombre:

Resuelve cada problema.

1) ¿Qué opción representa la parte sombreada de la rueda numérica?



A. $^{80}/_{20}$ B. 0.20

C. $^{20}/_{10}$ D. $^{0.2}/_{100}$

2) ¿Qué opción representa la parte sombreada de la rueda numérica?

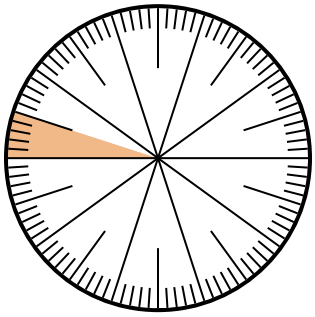

A. $^{0.05}/_{100}$ B. 0.05

C. $^{5}/_{95}$ D. $^{9.5}/_{100}$

3) ¿Qué opción representa la parte no sombreada de la rueda numérica?

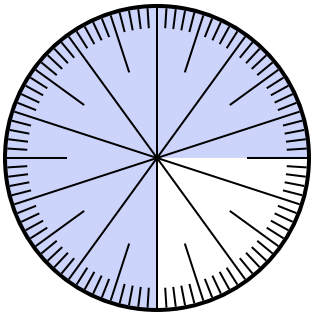

A. 2.50 B. $^{25}/_{100}$

C. 25 D. 2.5

4) ¿Qué opción representa la parte sombreada de la rueda numérica?



A. $^{80}/_{20}$ B. $^{8.00}/_{100}$

C. $^{80}/_{100}$ D. 8.00

5) ¿Qué opción representa la parte sombreada de la rueda numérica?

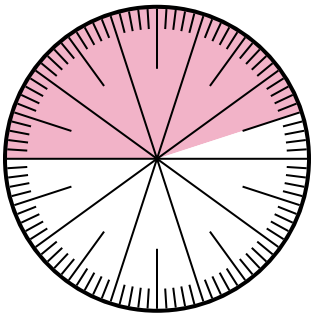

A. 55.0 B. 45

C. 4.5 D. 0.45

6) ¿Qué opción representa la parte no sombreada de la rueda numérica?

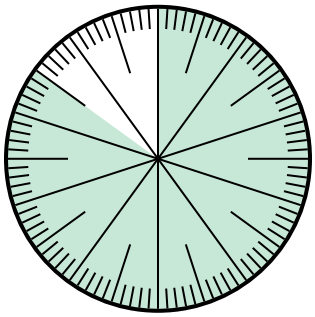

A. $^{1.5}/_{100}$ B. $^{15}/_{100}$

C. 1.50 D. 1.5

Respuestas

1. _____
2. _____
3. _____
4. _____
5. _____
6. _____

1-6	83	67	50	33	17	0

Resuelve cada problema.

1) ¿Qué opción representa la parte sombreada de la rueda numérica?



A. $^{80}/_{20}$ B. 0.20

C. $^{20}/_{10}$ D. $^{0.2}/_{100}$

2) ¿Qué opción representa la parte sombreada de la rueda numérica?

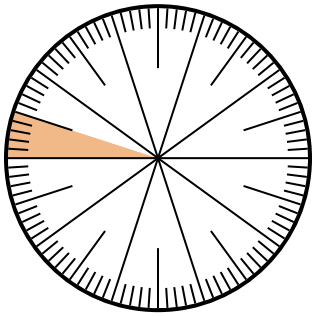

A. $^{0.05}/_{100}$ B. 0.05

C. $^{5}/_{95}$ D. $^{9.5}/_{100}$

3) ¿Qué opción representa la parte no sombreada de la rueda numérica?

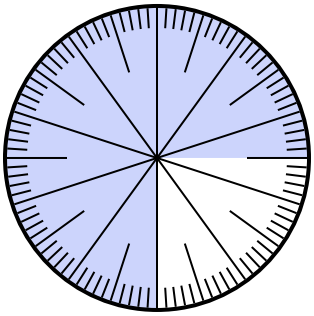

A. 2.50 B. $^{25}/_{100}$

C. 25 D. 2.5

4) ¿Qué opción representa la parte sombreada de la rueda numérica?



A. $^{80}/_{20}$ B. $^{8.00}/_{100}$

C. $^{80}/_{100}$ D. 8.00

5) ¿Qué opción representa la parte sombreada de la rueda numérica?

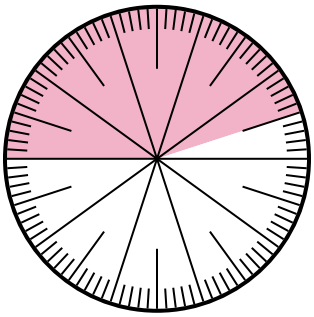

A. 55.0 B. 45

C. 4.5 D. 0.45

6) ¿Qué opción representa la parte no sombreada de la rueda numérica?

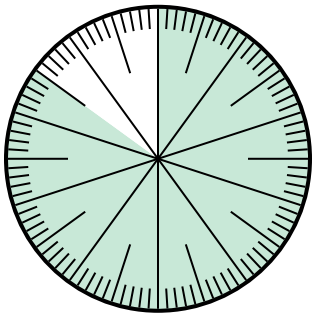

A. $^{1.5}/_{100}$ B. $^{15}/_{100}$

C. 1.50 D. 1.5

Respuestas

1. **B**
2. **B**
3. **B**
4. **C**
5. **D**
6. **B**

1-6	83	67	50	33	17	0

Identificar fracciones y decimales en un círculo numérico

Nombre:

Resuelve cada problema.

1) ¿Qué opción representa la parte sombreada de la rueda numérica?

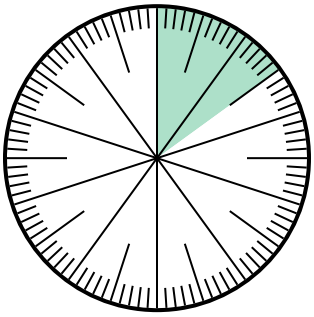

A. $^{1.50}/_{100}$ B. $^{15}/_{100}$

C. $^{1.5}/_{100}$ D. 1.50

2) ¿Qué opción representa la parte no sombreada de la rueda numérica?

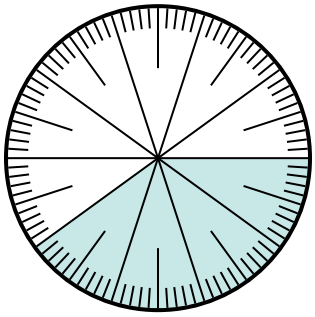

A. $^{6.00}/_{100}$ B. 0.6

C. 6 D. 6.00

3) ¿Qué opción representa la parte no sombreada de la rueda numérica?

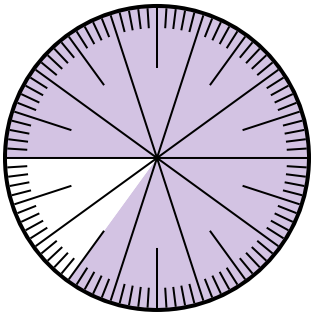

A. 1.5 B. 0.15

C. $^{15}/_{85}$ D. $^{0.15}/_{100}$

4) ¿Qué opción representa la parte no sombreada de la rueda numérica?

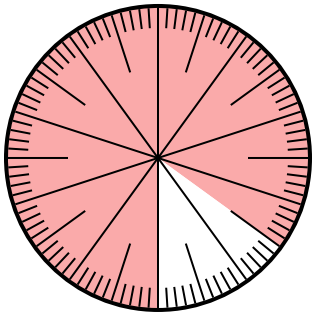

A. 15 B. 0.15

C. $^{0.85}/_{100}$ D. $^{8.5}/_{100}$

5) ¿Qué opción representa la parte no sombreada de la rueda numérica?

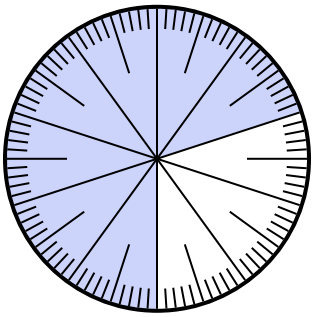

A. 0.030 B. 30

C. $^{3.00}/_{100}$ D. $^{30}/_{100}$

6) ¿Qué opción representa la parte no sombreada de la rueda numérica?

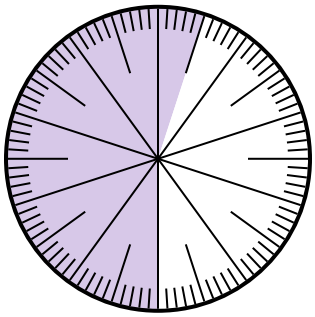

A. $^{4.5}/_{100}$ B. 0.45

C. 45 D. $^{4.50}/_{100}$

Respuestas

1. _____
2. _____
3. _____
4. _____
5. _____
6. _____

1-6	83	67	50	33	17	0

Resuelve cada problema.

1) ¿Qué opción representa la parte sombreada de la rueda numérica?

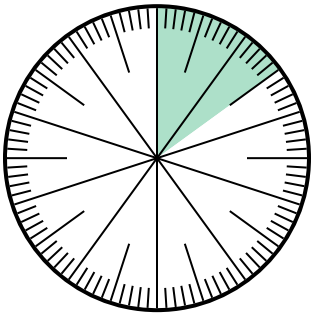

A. $^{1.50}/_{100}$ B. $^{15}/_{100}$

C. $^{1.5}/_{100}$ D. 1.50

2) ¿Qué opción representa la parte no sombreada de la rueda numérica?

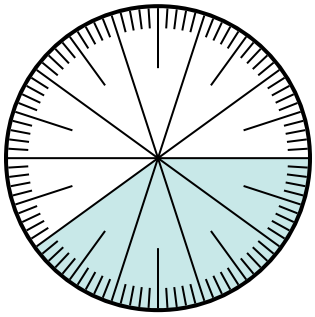

A. $^{6.00}/_{100}$ B. 0.6

C. 6 D. 6.00

3) ¿Qué opción representa la parte no sombreada de la rueda numérica?

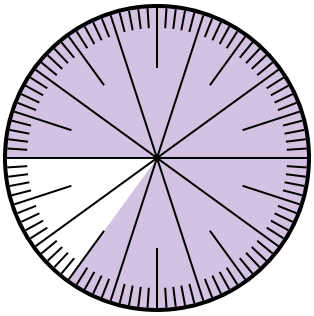

A. 1.5 B. 0.15

C. $^{15}/_{85}$ D. $^{0.15}/_{100}$

4) ¿Qué opción representa la parte no sombreada de la rueda numérica?

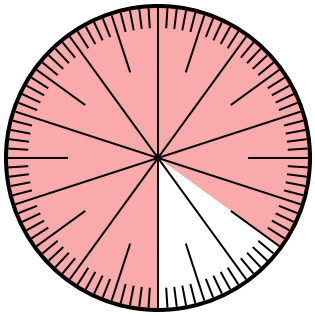

A. 15 B. 0.15

C. $^{0.85}/_{100}$ D. $^{8.5}/_{100}$

5) ¿Qué opción representa la parte no sombreada de la rueda numérica?

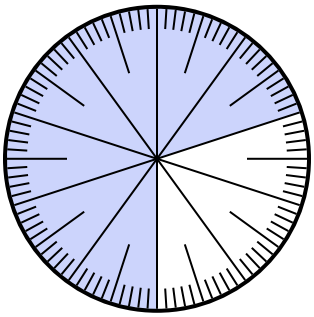

A. 0.030 B. 30

C. $^{3.00}/_{100}$ D. $^{30}/_{100}$

6) ¿Qué opción representa la parte no sombreada de la rueda numérica?

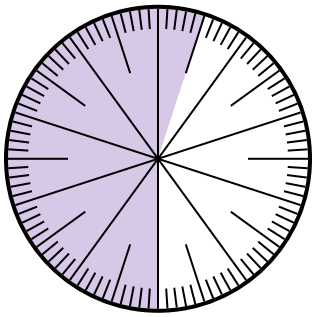

A. $^{4.5}/_{100}$ B. 0.45

C. 45 D. $^{4.50}/_{100}$

Respuestas

1. **B**
2. **B**
3. **B**
4. **B**
5. **D**
6. **B**

1-6	83	67	50	33	17	0

Identificar fracciones y decimales en un círculo numérico

Nombre:

Resuelve cada problema.

1) ¿Qué opción representa la parte no sombreada de la rueda numérica?

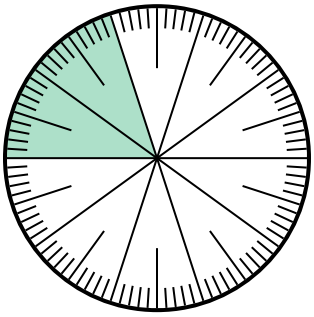

A. $^{0.8}/_{100}$ B. 0.8

C. 8 D. $^{80}/_{20}$

2) ¿Qué opción representa la parte no sombreada de la rueda numérica?

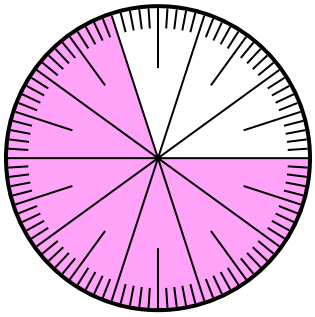

A. 0.30 B. 70

C. 0.070 D. $^{70}/_{30}$

3) ¿Qué opción representa la parte no sombreada de la rueda numérica?

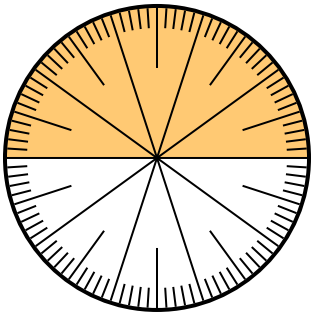

A. 5.00 B. $^{5}/_{100}$

C. $^{5}/_{100}$ D. 0.5

4) ¿Qué opción representa la parte sombreada de la rueda numérica?

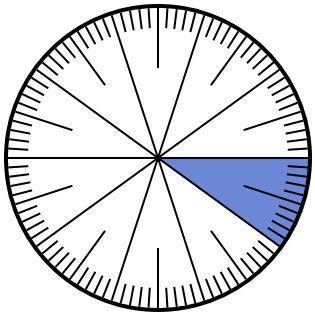

A. 0.10 B. 1

C. $^{1}/_{100}$ D. $^{0.9}/_{100}$

5) ¿Qué opción representa la parte no sombreada de la rueda numérica?

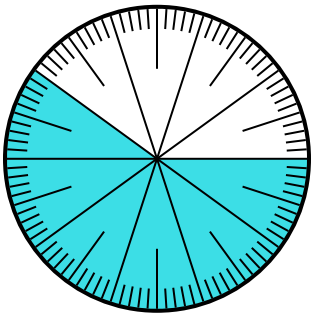

A. 4.00 B. 0.40

C. $^{40}/_{60}$ D. $^{4.00}/_{100}$

6) ¿Qué opción representa la parte sombreada de la rueda numérica?

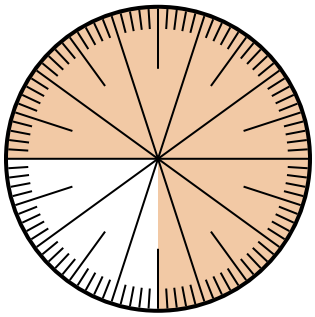

A. $^{75}/_{25}$ B. 0.075

C. $^{75}/_{100}$ D. 7.50

Respuestas

1. _____
2. _____
3. _____
4. _____
5. _____
6. _____

1-6	83	67	50	33	17	0

Resuelve cada problema.

1) ¿Qué opción representa la parte no sombreada de la rueda numérica?

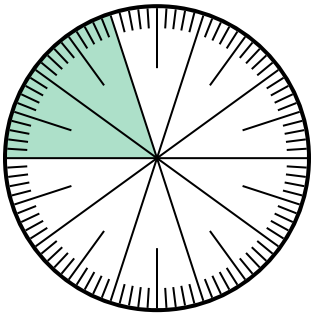

A. $^{0.8}/_{100}$ B. 0.8

C. 8 D. $^{80}/_{20}$

2) ¿Qué opción representa la parte no sombreada de la rueda numérica?

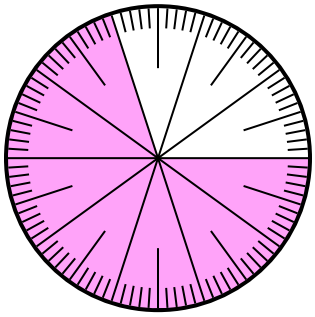

A. 0.30 B. 70

C. 0.070 D. $^{70}/_{30}$

3) ¿Qué opción representa la parte no sombreada de la rueda numérica?

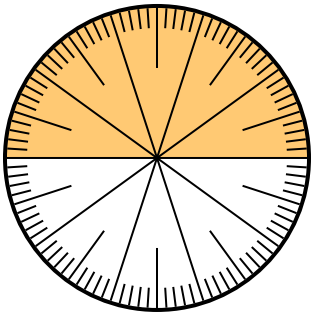

A. 5.00 B. $^{5}/_{100}$

C. $^{5}/_{100}$ D. 0.5

4) ¿Qué opción representa la parte sombreada de la rueda numérica?

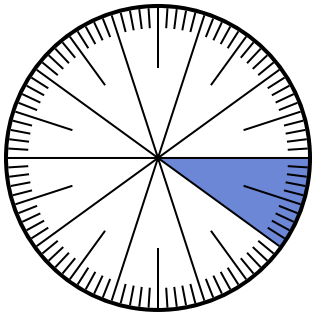

A. 0.10 B. 1

C. $^{1}/_{100}$ D. $^{0.9}/_{100}$

5) ¿Qué opción representa la parte no sombreada de la rueda numérica?

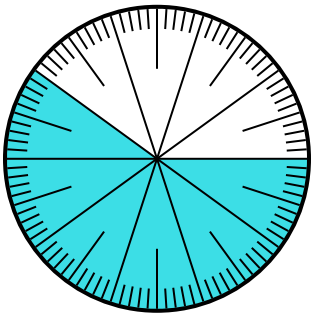

A. 4.00 B. 0.40

C. $^{40}/_{60}$ D. $^{4.00}/_{100}$

6) ¿Qué opción representa la parte sombreada de la rueda numérica?

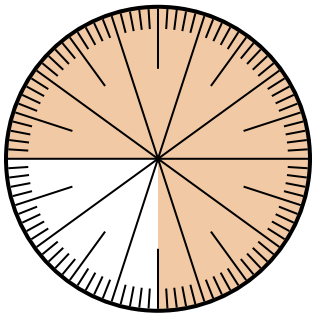

A. $^{75}/_{25}$ B. 0.075

C. $^{75}/_{100}$ D. 7.50

Respuestas

1. **B**
2. **A**
3. **D**
4. **A**
5. **B**
6. **C**

1-6	83	67	50	33	17	0

Identificar fracciones y decimales en un círculo numérico

Nombre:

Resuelve cada problema.

1) ¿Qué opción representa la parte no sombreada de la rueda numérica?

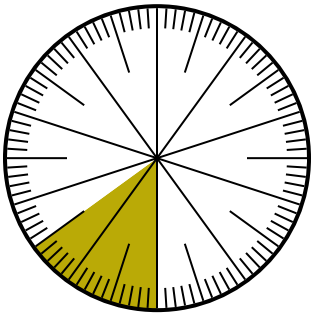

A. $^{85}/_{100}$ B. $^{8.5}/_{100}$

C. $^{0.85}/_{100}$ D. $^{85}/_{15}$

2) ¿Qué opción representa la parte no sombreada de la rueda numérica?

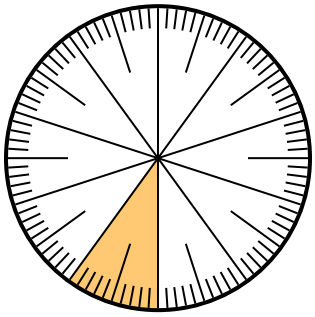

A. 0.9 B. 90

C. $^{1}/_{100}$ D. 9

3) ¿Qué opción representa la parte no sombreada de la rueda numérica?

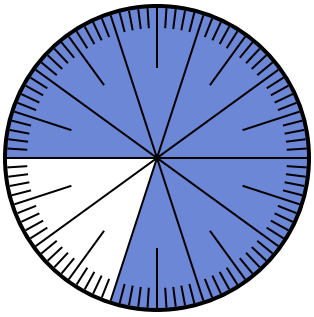

A. 20 B. $^{20}/_{80}$

C. 0.2 D. $^{20}/_{10}$

4) ¿Qué opción representa la parte no sombreada de la rueda numérica?

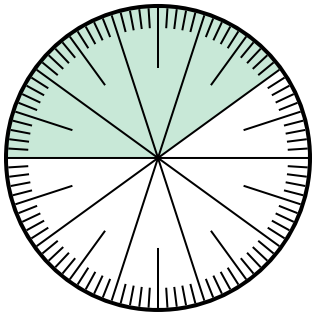

A. 0.0060 B. 0.6

C. 60 D. $^{40}/_{60}$

5) ¿Qué opción representa la parte no sombreada de la rueda numérica?

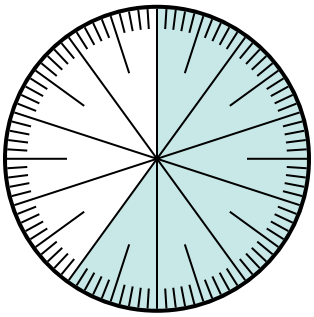

A. $^{60}/_{40}$ B. $^{40}/_{100}$

C. $^{0.4}/_{100}$ D. 40

6) ¿Qué opción representa la parte no sombreada de la rueda numérica?

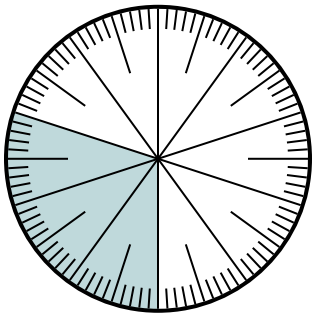

A. $^{70}/_{100}$ B. $^{70}/_{30}$

C. 7 D. $^{30}/_{70}$

Respuestas

1. _____
2. _____
3. _____
4. _____
5. _____
6. _____

1-6	83	67	50	33	17	0

Resuelve cada problema.

1) ¿Qué opción representa la parte no sombreada de la rueda numérica?

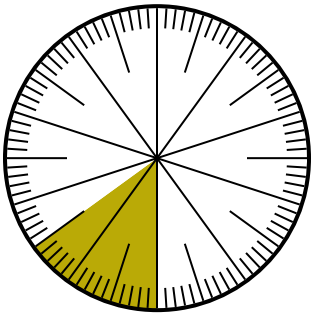

A. $^{85}/_{100}$ B. $^{8.5}/_{100}$

C. $^{0.85}/_{100}$ D. $^{85}/_{15}$

2) ¿Qué opción representa la parte no sombreada de la rueda numérica?

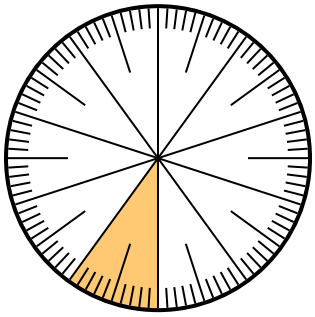

A. 0.9 B. 90

C. $^{1}/_{100}$ D. 9

3) ¿Qué opción representa la parte no sombreada de la rueda numérica?

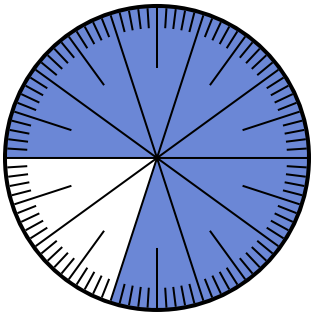

A. 20 B. $^{20}/_{80}$

C. 0.2 D. $^{20}/_{10}$

4) ¿Qué opción representa la parte no sombreada de la rueda numérica?

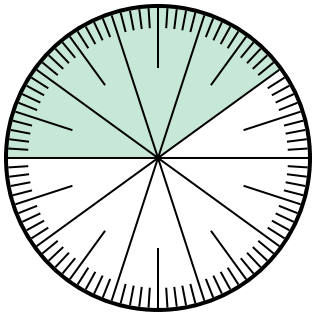

A. 0.0060 B. 0.6

C. 60 D. $^{40}/_{60}$

5) ¿Qué opción representa la parte no sombreada de la rueda numérica?

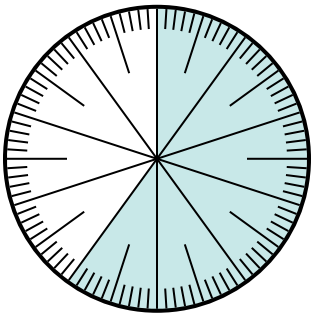

A. $^{60}/_{40}$ B. $^{40}/_{100}$

C. $^{0.4}/_{100}$ D. 40

6) ¿Qué opción representa la parte no sombreada de la rueda numérica?

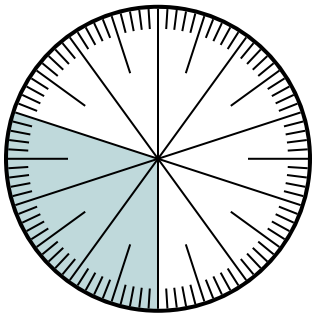

A. $^{70}/_{100}$ B. $^{70}/_{30}$

C. 7 D. $^{30}/_{70}$

Respuestas

1. A
2. A
3. C
4. B
5. B
6. A

1-6	83	67	50	33	17	0