Cantidad Relativa de la Fracción a Entero

Nombre:

Resuelve cada problema.

Ej) Expresar triangulos como una fracción de todo el conjunto.

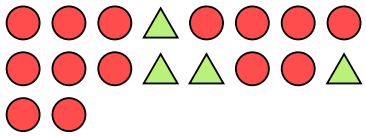

1) Expresar moons como una fracción de todo el conjunto.



2) Expresar circulos como una fracción de todo el conjunto.

3) Expresar cuadros como una fracción de todo el conjunto.

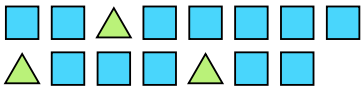

4) Expresar triangulos como una fracción de todo el conjunto.

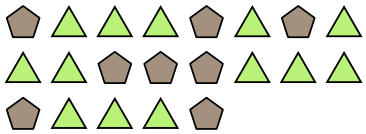

5) Expresar triangulos como una fracción de todo el conjunto.

6) Expresar moons como una fracción de todo el conjunto.

7) Expresar circulos como una fracción de todo el conjunto.



8) Expresar moons como una fracción de todo el conjunto.

9) Expresar estrellas como una fracción de todo el conjunto.



10) Expresar circulos como una fracción de todo el conjunto.



11) Expresar pentagonos como una fracción de todo el conjunto.

Respuestas

Ej. $\frac{4}{18}$

1. _____
2. _____
3. _____
4. _____
5. _____
6. _____
7. _____
8. _____
9. _____
10. _____
11. _____

1-10	91	82	73	64	55	45	36	27	18	9
11	0									

Cantidad Relativa de la Fracción a Entero

Nombre: **Clave De Respuestas**

Resuelve cada problema.

Ej) Expresar triangulos como una fracción de todo el conjunto.

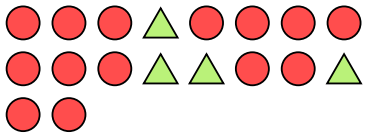

1) Expresar moons como una fracción de todo el conjunto.



2) Expresar circulos como una fracción de todo el conjunto.

3) Expresar cuadros como una fracción de todo el conjunto.

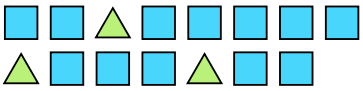

4) Expresar triangulos como una fracción de todo el conjunto.

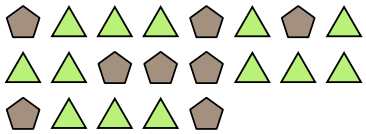

5) Expresar triangulos como una fracción de todo el conjunto.

6) Expresar moons como una fracción de todo el conjunto.

7) Expresar circulos como una fracción de todo el conjunto.



8) Expresar moons como una fracción de todo el conjunto.

9) Expresar estrellas como una fracción de todo el conjunto.



10) Expresar circulos como una fracción de todo el conjunto.



11) Expresar pentagonos como una fracción de todo el conjunto.

Respuestas

Ej.	4/18
1.	15/23
2.	9/16
3.	12/15
4.	13/21
5.	4/14
6.	5/9
7.	11/23
8.	7/12
9.	6/19
10.	8/23
11.	2/5

1-10	91	82	73	64	55	45	36	27	18	9
11	0									