Expresar fracciones y decimales con un círculo numérico Nombre:

Resuelve cada problema.

1) Expresa la porción de {PALABRA} como una fracción del todo con un 100 como denominador.

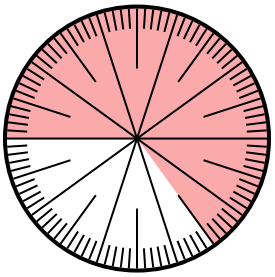

2) Expresa la porción de {PALABRA} como un decimal del entero.

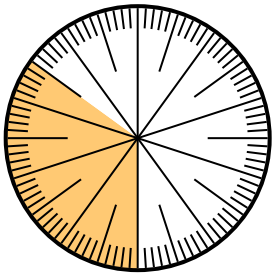

3) Expresa la porción de {PALABRA} como una fracción del todo con un 10 como denominador.

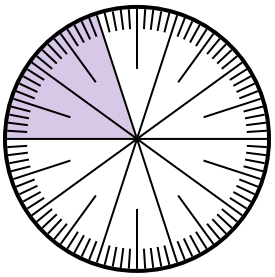

4) Expresa la porción de {PALABRA} como una fracción del todo con un 100 como denominador.

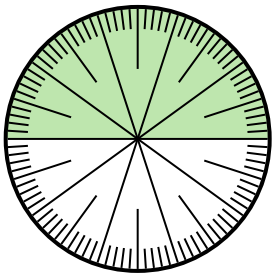

5) Expresa la porción de {PALABRA} como un decimal del entero.



6) Expresa la porción de {PALABRA} como un decimal del entero.

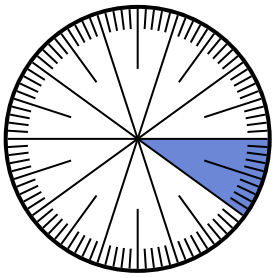

7) Expresa la porción de {PALABRA} como una fracción del todo con un 100 como denominador.

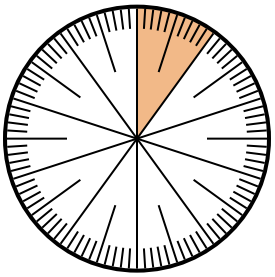

8) Expresa la porción de {PALABRA} como una fracción del todo con un 100 como denominador.



Respuestas

1. _____
2. _____
3. _____
4. _____
5. _____
6. _____
7. _____
8. _____

1-8	88	75	63	50	38	25	13	0

Resuelve cada problema.

1) Expresa la porción de {PALABRA} como una fracción del todo con un 100 como denominador.

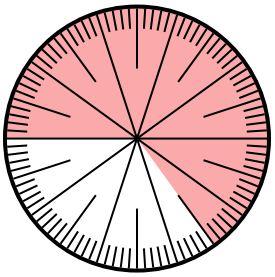

2) Expresa la porción de {PALABRA} como un decimal del entero.

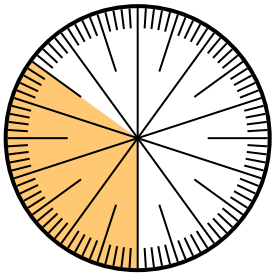

3) Expresa la porción de {PALABRA} como una fracción del todo con un 10 como denominador.

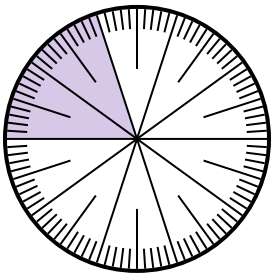

4) Expresa la porción de {PALABRA} como una fracción del todo con un 100 como denominador.

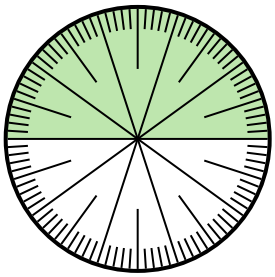

5) Expresa la porción de {PALABRA} como un decimal del entero.



6) Expresa la porción de {PALABRA} como un decimal del entero.

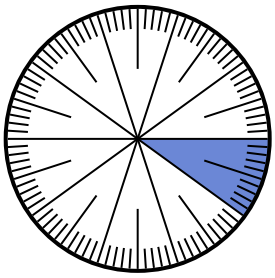

7) Expresa la porción de {PALABRA} como una fracción del todo con un 100 como denominador.

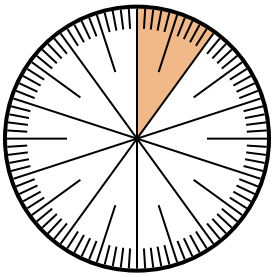

8) Expresa la porción de {PALABRA} como una fracción del todo con un 100 como denominador.



Respuestas

1. 65/100
2. 0.65
3. 8/10
4. 50/100
5. 0.1
6. 0.9
7. 10/100
8. 5/100

1-8	88	75	63	50	38	25	13	0