Encuentra fracciones equivalentes con una recta numérica Nombre:

Usa la recta numérica para resolver las preguntas.

1) Utilizando las rectas numéricas que se muestran, ¿cuál es la fracción equivalente a {VAR}

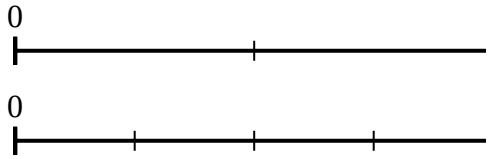

2) Utilizando las rectas numéricas que se muestran, ¿cuál es la fracción equivalente a {VAR}

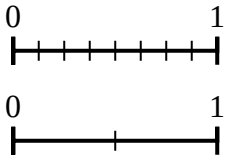

3) Utilizando las rectas numéricas que se muestran, ¿cuál es la fracción equivalente a {VAR}

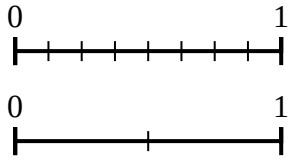

4) Utilizando las rectas numéricas que se muestran, ¿cuál es la fracción equivalente a {VAR}

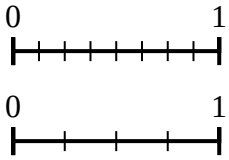

5) Utilizando las rectas numéricas que se muestran, ¿cuál es la fracción equivalente a {VAR}

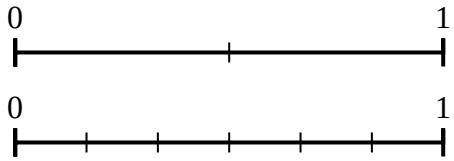

6) Utilizando las rectas numéricas que se muestran, ¿cuál es la fracción equivalente a {VAR}

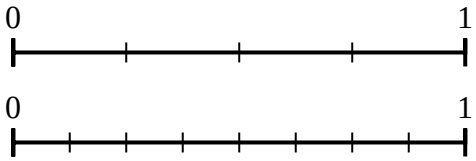

7) Utilizando las rectas numéricas que se muestran, ¿cuál es la fracción equivalente a {VAR}

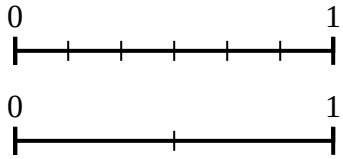

8) Utilizando las rectas numéricas que se muestran, ¿cuál es la fracción equivalente a {VAR}

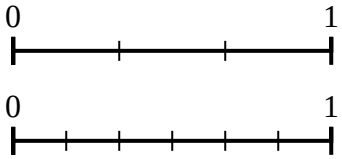

Respuestas

1. _____
2. _____
3. _____
4. _____
5. _____
6. _____
7. _____
8. _____

1-8	88	75	63	50	38	25	13	0

Usa la recta numérica para resolver las preguntas.

1) Utilizando las rectas numéricas que se muestran, ¿cuál es la fracción equivalente a {VAR}

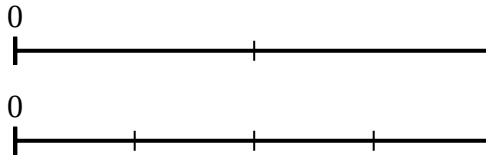

2) Utilizando las rectas numéricas que se muestran, ¿cuál es la fracción equivalente a {VAR}

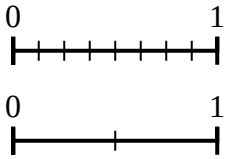

3) Utilizando las rectas numéricas que se muestran, ¿cuál es la fracción equivalente a {VAR}

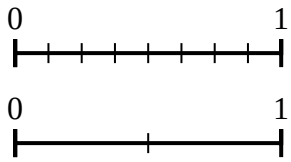

4) Utilizando las rectas numéricas que se muestran, ¿cuál es la fracción equivalente a {VAR}

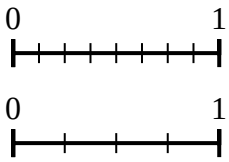

5) Utilizando las rectas numéricas que se muestran, ¿cuál es la fracción equivalente a {VAR}

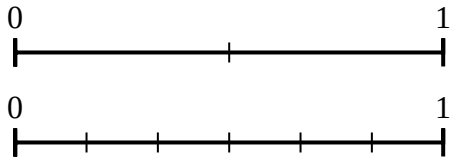

6) Utilizando las rectas numéricas que se muestran, ¿cuál es la fracción equivalente a {VAR}

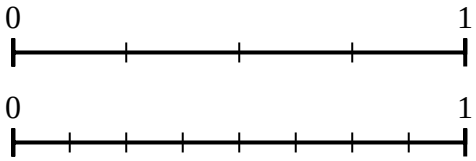

7) Utilizando las rectas numéricas que se muestran, ¿cuál es la fracción equivalente a {VAR}

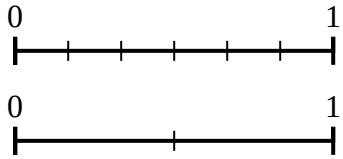

8) Utilizando las rectas numéricas que se muestran, ¿cuál es la fracción equivalente a {VAR}

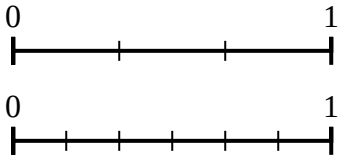

Respuestas

1. $\frac{4}{4}$
2. $\frac{1}{2}$
3. $\frac{2}{2}$
4. $\frac{4}{4}$
5. $\frac{0}{6}$
6. $\frac{4}{8}$
7. $\frac{1}{2}$
8. $\frac{4}{6}$

1-8	88	75	63	50	38	25	13	0