Encuentra fracciones equivalentes con una recta numérica Nombre:

**Usa la recta numérica para resolver las preguntas.**

**1)** Utilizando las rectas numéricas que se muestran, ¿cuál es la fracción equivalente a {VAR}

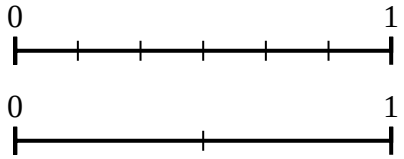


**2)** Utilizando las rectas numéricas que se muestran, ¿cuál es la fracción equivalente a {VAR}

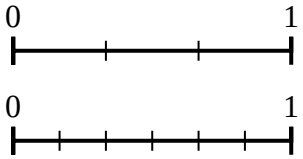


**3)** Utilizando las rectas numéricas que se muestran, ¿cuál es la fracción equivalente a {VAR}

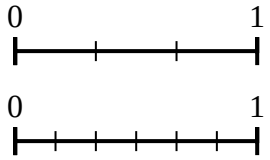


**4)** Utilizando las rectas numéricas que se muestran, ¿cuál es la fracción equivalente a {VAR}

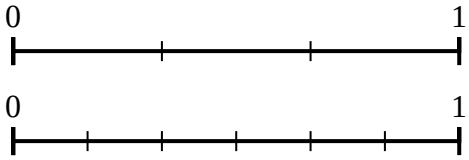


**5)** Utilizando las rectas numéricas que se muestran, ¿cuál es la fracción equivalente a {VAR}

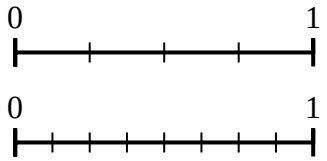


**6)** Utilizando las rectas numéricas que se muestran, ¿cuál es la fracción equivalente a {VAR}

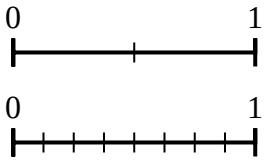


**7)** Utilizando las rectas numéricas que se muestran, ¿cuál es la fracción equivalente a {VAR}

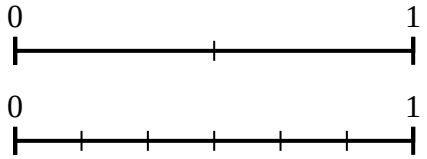


**8)** Utilizando las rectas numéricas que se muestran, ¿cuál es la fracción equivalente a {VAR}

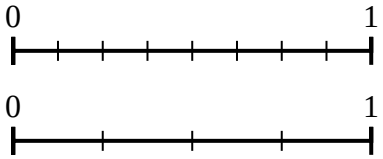


**Respuestas**

1. _____
2. _____
3. _____
4. _____
5. _____
6. _____
7. _____
8. _____



| 1-8 | 88 | 75 | 63 | 50 | 38 | 25 | 13 | 0 |
|---|---|---|---|---|---|---|---|---|

**Usa la recta numérica para resolver las preguntas.**

**1)** Utilizando las rectas numéricas que se muestran, ¿cuál es la fracción equivalente a {VAR}

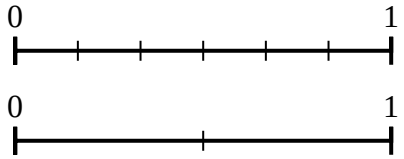


**2)** Utilizando las rectas numéricas que se muestran, ¿cuál es la fracción equivalente a {VAR}

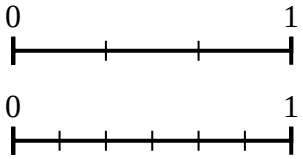


**3)** Utilizando las rectas numéricas que se muestran, ¿cuál es la fracción equivalente a {VAR}

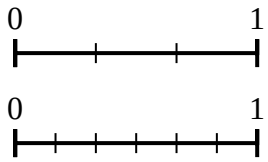


**4)** Utilizando las rectas numéricas que se muestran, ¿cuál es la fracción equivalente a {VAR}

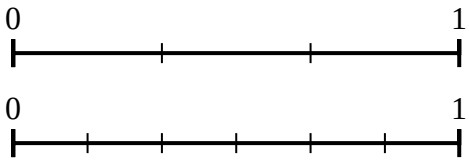


**5)** Utilizando las rectas numéricas que se muestran, ¿cuál es la fracción equivalente a {VAR}

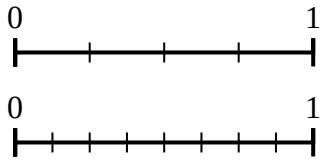


**6)** Utilizando las rectas numéricas que se muestran, ¿cuál es la fracción equivalente a {VAR}

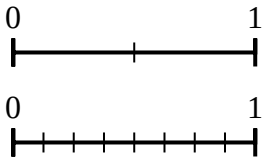


**7)** Utilizando las rectas numéricas que se muestran, ¿cuál es la fracción equivalente a {VAR}

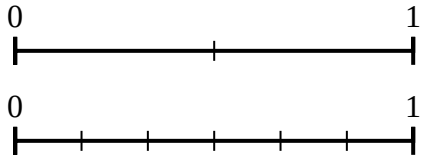


**8)** Utilizando las rectas numéricas que se muestran, ¿cuál es la fracción equivalente a {VAR}

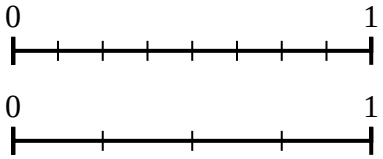


## Respuestas

1. $\frac{2}{2}$
2. $\frac{4}{6}$
3. $\frac{6}{6}$
4. $\frac{2}{6}$
5. $\frac{4}{8}$
6. $\frac{4}{8}$
7. $\frac{3}{6}$
8. $\frac{4}{4}$



| 1-8 | 88 | 75 | 63 | 50 | 38 | 25 | 13 | 0 |
|---|---|---|---|---|---|---|---|---|