Determinando fracciones Visualmente

Nombre:

Determina cuál opción mejor responde a cada pregunta.

1) ¿Cuál de las figuras de abajo está sombreada para representar $^{5}/_{10}$?

A. 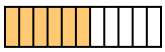
B. 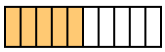
C.
D.

2) ¿Cuál de las figuras de abajo está sombreada para representar $^{2}/_{7}$?

A. 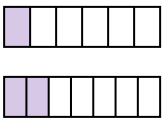
B. 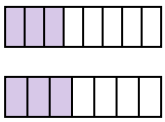
C.
D.

3) ¿Cuál de las figuras de abajo está sombreada para representar $^{3}/_{7}$?

A. 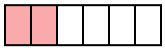
B. 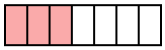
C. 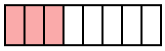
D. 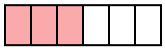

4) ¿Cuál de las figuras de abajo está sombreada para representar $^{4}/_{7}$?

A.
B.
C.
D.

5) ¿Cuál de las figuras de abajo está sombreada para representar $^{4}/_{6}$?

A.
B.
C.
D.

6) ¿Cuál de las figuras de abajo está sombreada para representar $^{2}/_{10}$?

A.
B.
C.
D.

7) ¿Cuál de las figuras de abajo está sombreada para representar $^{5}/_{7}$?

A.
B.
C.
D.

8) ¿Cuál de las figuras de abajo está sombreada para representar $^{2}/_{6}$?

A.
B.
C.
D.

9) ¿Cuál de las figuras de abajo está sombreada para representar $^{4}/_{8}$?

A. B. C. D.

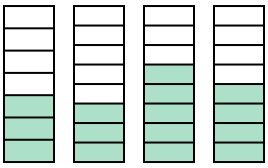

10) ¿Cuál de las figuras de abajo está sombreada para representar $^{2}/_{8}$?

A. B. C. D.

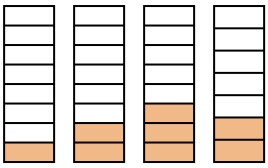

Respuestas

1. _____
2. _____
3. _____
4. _____
5. _____
6. _____
7. _____
8. _____
9. _____
10. _____

1-10	90	80	70	60	50	40	30	20	10	0

Determina cuál opción mejor responde a cada pregunta.

1) ¿Cuál de las figuras de abajo está sombreada para representar $^{5}/_{10}$?

A. 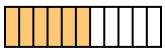
B. 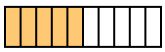
C.
D.

2) ¿Cuál de las figuras de abajo está sombreada para representar $^{2}/_{7}$?

A. 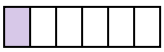
B. 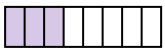
C. 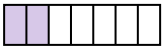
D. 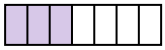

3) ¿Cuál de las figuras de abajo está sombreada para representar $^{3}/_{7}$?

A. 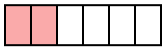
B. 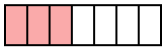
C. 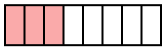
D. 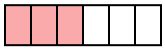

4) ¿Cuál de las figuras de abajo está sombreada para representar $^{4}/_{7}$?

A.
B.
C.
D.

5) ¿Cuál de las figuras de abajo está sombreada para representar $^{4}/_{6}$?

A.
B.
C.
D.

6) ¿Cuál de las figuras de abajo está sombreada para representar $^{2}/_{10}$?

A.
B.
C.
D.

7) ¿Cuál de las figuras de abajo está sombreada para representar $^{5}/_{7}$?

A.
B.
C.
D.

8) ¿Cuál de las figuras de abajo está sombreada para representar $^{2}/_{6}$?

A.
B.
C.
D.

9) ¿Cuál de las figuras de abajo está sombreada para representar $^{4}/_{8}$?

A. B. C. D.

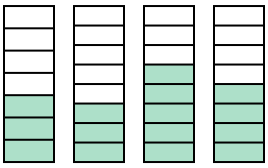

10) ¿Cuál de las figuras de abajo está sombreada para representar $^{2}/_{8}$?

A. B. C. D.

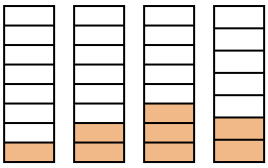

Respuestas

1. B
2. C
3. B
4. A
5. C
6. A
7. A
8. C
9. D
10. B

1-10	90	80	70	60	50	40	30	20	10	0