Comparar fracciones con decimales en una recta numérica Nombre:

Usa la recta numérica para resolver cada problema.

1) ¿Qué cantidad es mayor, $^{2}/_{9}$ o 0.34?

2) ¿Qué cantidad es mayor, $^{3}/_{6}$ o 0.68?

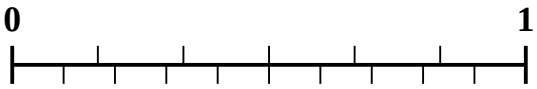

3) ¿Qué cantidad es mayor, $^{6}/_{7}$ o 0.72?

4) ¿Qué cantidad es mayor, $^{4}/_{6}$ o 0.47?

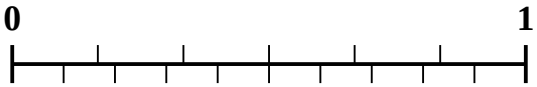

5) ¿Qué cantidad es mayor, $^{3}/_{7}$ o 0.54?

6) ¿Qué cantidad es mayor, $^{1}/_{3}$ o 0.51?

7) ¿Qué cantidad es mayor, $^{5}/_{7}$ o 0.54?

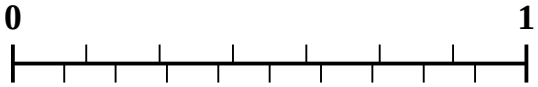

8) ¿Qué cantidad es mayor, $^{3}/_{4}$ o 0.89?

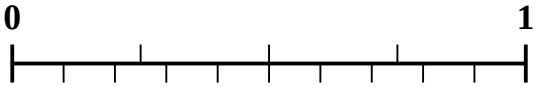

9) ¿Qué cantidad es mayor, $^{4}/_{5}$ o 0.6?

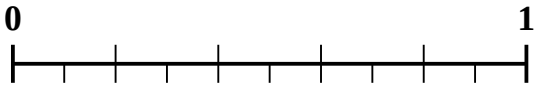

10) ¿Qué cantidad es mayor, $^{1}/_{2}$ o 0.34?

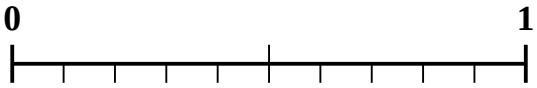

Respuestas

1. _____
2. _____
3. _____
4. _____
5. _____
6. _____
7. _____
8. _____
9. _____
10. _____

1-10	90	80	70	60	50	40	30	20	10	0

Comparar fracciones con decimales en una recta numérica Nombre: **Clave De Respuestas**

Usa la recta numérica para resolver cada problema.

1) ¿Qué cantidad es mayor, $^{2}/_{9}$ o 0.34?

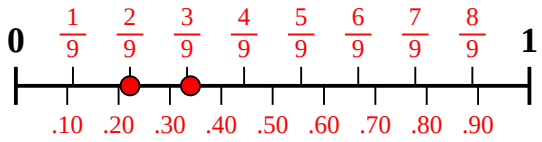

2) ¿Qué cantidad es mayor, $^{3}/_{6}$ o 0.68?

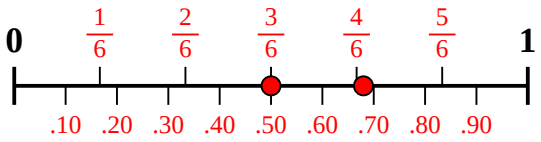

3) ¿Qué cantidad es mayor, $^{6}/_{7}$ o 0.72?

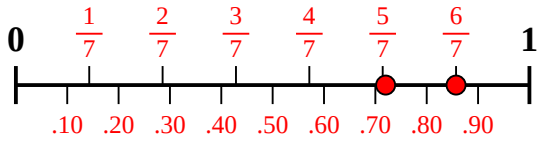

4) ¿Qué cantidad es mayor, $^{4}/_{6}$ o 0.47?

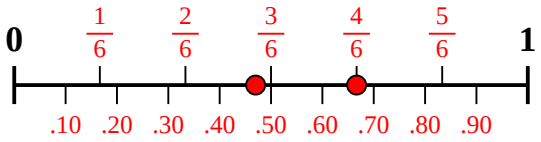

5) ¿Qué cantidad es mayor, $^{3}/_{7}$ o 0.54?

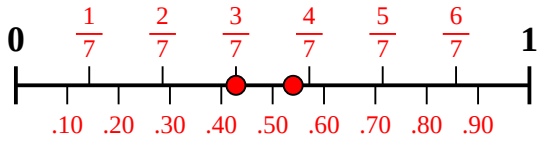

6) ¿Qué cantidad es mayor, $^{1}/_{3}$ o 0.51?

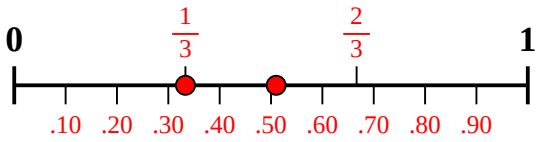

7) ¿Qué cantidad es mayor, $^{5}/_{7}$ o 0.54?

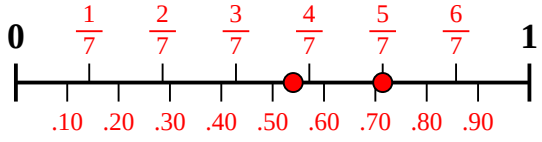

8) ¿Qué cantidad es mayor, $^{3}/_{4}$ o 0.89?

9) ¿Qué cantidad es mayor, $^{4}/_{5}$ o 0.6?

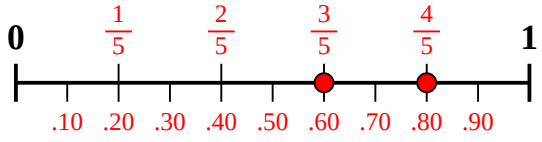

10) ¿Qué cantidad es mayor, $^{1}/_{2}$ o 0.34?

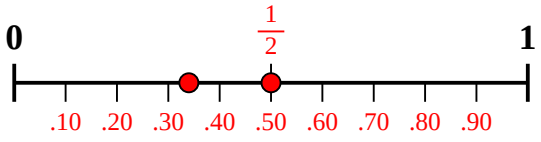

Respuestas

1. **0.34**
2. **0.68**
3. **$^{6}/_{7}$**
4. **$^{4}/_{6}$**
5. **0.54**
6. **0.51**
7. **$^{5}/_{7}$**
8. **0.89**
9. **$^{4}/_{5}$**
10. **$^{1}/_{2}$**

1-10	90	80	70	60	50	40	30	20	10	0

Comparar fracciones con decimales en una recta numérica Nombre:

Usa la recta numérica para resolver cada problema.

1) ¿Qué cantidad es mayor, $^{4}/_{10}$ o 0.52?

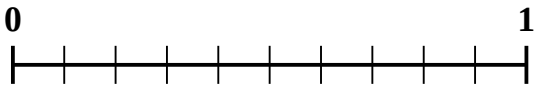

2) ¿Qué cantidad es mayor, $^{1}/_{4}$ o 0.39?

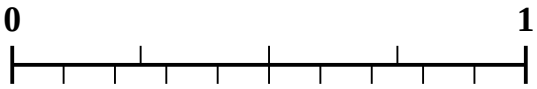

3) ¿Qué cantidad es mayor, $^{1}/_{2}$ o 0.64?

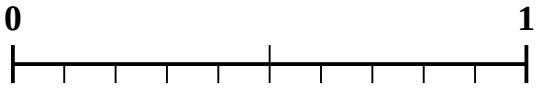

4) ¿Qué cantidad es mayor, $^{2}/_{3}$ o 0.55?

5) ¿Qué cantidad es mayor, $^{4}/_{6}$ o 0.85?

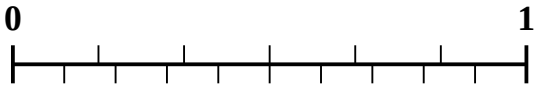

6) ¿Qué cantidad es mayor, $^{2}/_{4}$ o 0.38?

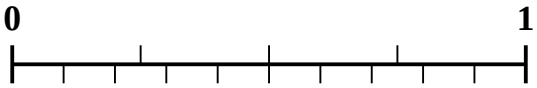

7) ¿Qué cantidad es mayor, $^{8}/_{9}$ o 0.76?

8) ¿Qué cantidad es mayor, $^{6}/_{8}$ o 0.6?

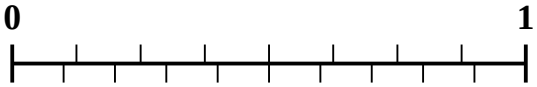

9) ¿Qué cantidad es mayor, $^{5}/_{7}$ o 0.54?

10) ¿Qué cantidad es mayor, $^{6}/_{7}$ o 0.69?

Respuestas

1. _____
2. _____
3. _____
4. _____
5. _____
6. _____
7. _____
8. _____
9. _____
10. _____

1-10	90	80	70	60	50	40	30	20	10	0

Comparar fracciones con decimales en una recta numérica Nombre: **Clave De Respuestas**

Usa la recta numérica para resolver cada problema.

1) ¿Qué cantidad es mayor, $^{4}/_{10}$ o 0.52?

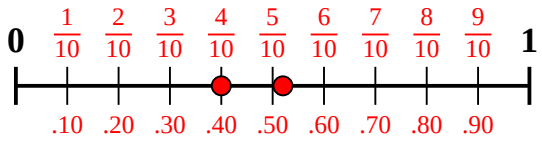

2) ¿Qué cantidad es mayor, $^{1}/_{4}$ o 0.39?

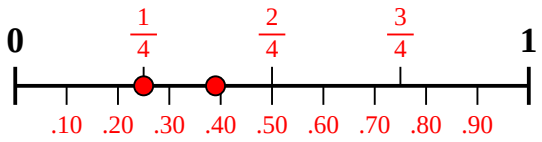

3) ¿Qué cantidad es mayor, $^{1}/_{2}$ o 0.64?

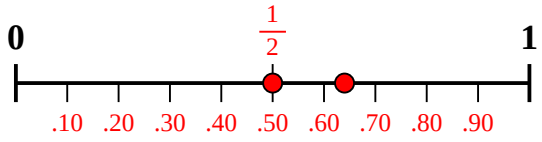

4) ¿Qué cantidad es mayor, $^{2}/_{3}$ o 0.55?

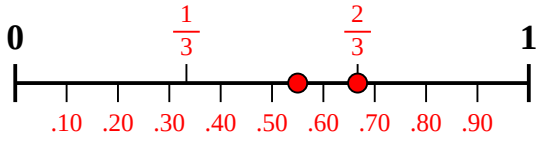

5) ¿Qué cantidad es mayor, $^{4}/_{6}$ o 0.85?

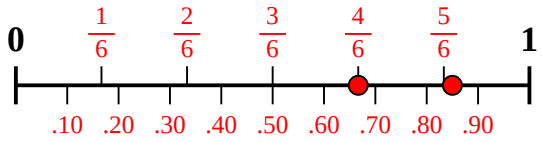

6) ¿Qué cantidad es mayor, $^{2}/_{4}$ o 0.38?

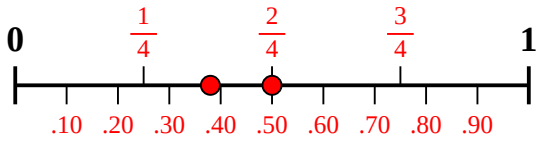

7) ¿Qué cantidad es mayor, $^{8}/_{9}$ o 0.76?

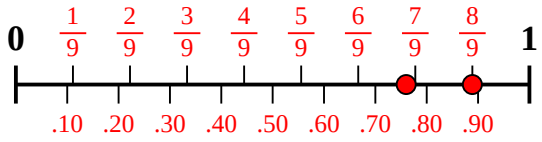

8) ¿Qué cantidad es mayor, $^{6}/_{8}$ o 0.6?

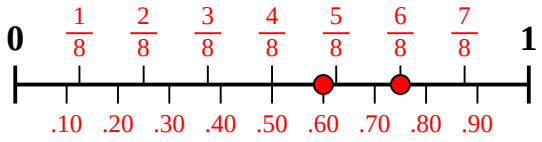

9) ¿Qué cantidad es mayor, $^{5}/_{7}$ o 0.54?

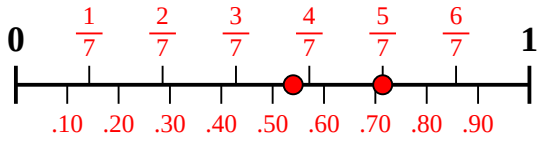

10) ¿Qué cantidad es mayor, $^{6}/_{7}$ o 0.69?

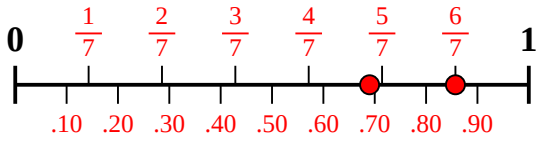

Respuestas

1. **0.52**
2. **0.39**
3. **0.64**
4. **$^{2}/_{3}$**
5. **0.85**
6. **$^{2}/_{4}$**
7. **$^{8}/_{9}$**
8. **$^{6}/_{8}$**
9. **$^{5}/_{7}$**
10. **$^{6}/_{7}$**

1-10	90	80	70	60	50	40	30	20	10	0

Comparar fracciones con decimales en una recta numérica Nombre:

Usa la recta numérica para resolver cada problema.

1) ¿Qué cantidad es mayor, $^{2}/_{6}$ o 0.15?

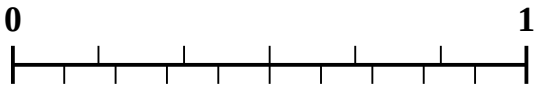

2) ¿Qué cantidad es mayor, $^{1}/_{3}$ o 0.52?

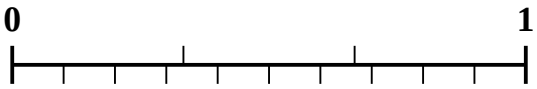

3) ¿Qué cantidad es mayor, $^{3}/_{5}$ o 0.48?

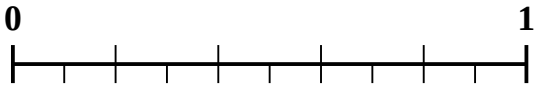

4) ¿Qué cantidad es mayor, $^{2}/_{3}$ o 0.87?

5) ¿Qué cantidad es mayor, $^{5}/_{7}$ o 0.57?

6) ¿Qué cantidad es mayor, $^{4}/_{7}$ o 0.75?

7) ¿Qué cantidad es mayor, $^{3}/_{9}$ o 0.15?

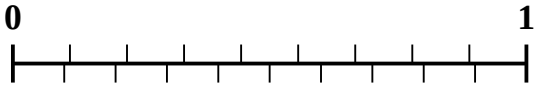

8) ¿Qué cantidad es mayor, $^{3}/_{4}$ o 0.9?

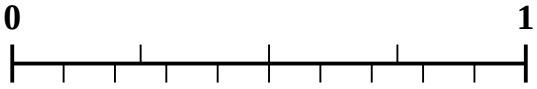

9) ¿Qué cantidad es mayor, $^{7}/_{9}$ o 0.89?

10) ¿Qué cantidad es mayor, $^{3}/_{10}$ o 0.15?

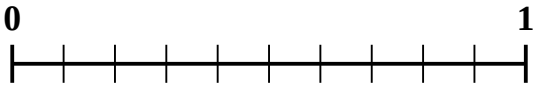

Respuestas

1. _____
2. _____
3. _____
4. _____
5. _____
6. _____
7. _____
8. _____
9. _____
10. _____

1-10	90	80	70	60	50	40	30	20	10	0

Comparar fracciones con decimales en una recta numérica Nombre: **Clave De Respuestas**

Usa la recta numérica para resolver cada problema.

1) ¿Qué cantidad es mayor, $^{2}/_{6}$ o 0.15?

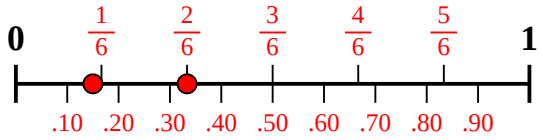

2) ¿Qué cantidad es mayor, $^{1}/_{3}$ o 0.52?

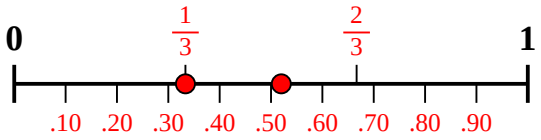

3) ¿Qué cantidad es mayor, $^{3}/_{5}$ o 0.48?

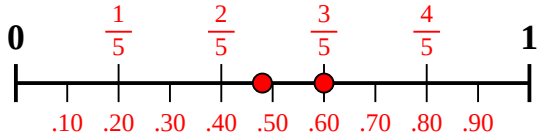

4) ¿Qué cantidad es mayor, $^{2}/_{3}$ o 0.87?

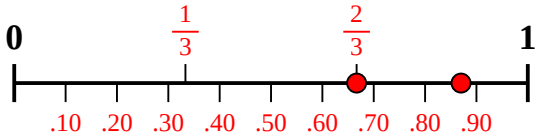

5) ¿Qué cantidad es mayor, $^{5}/_{7}$ o 0.57?

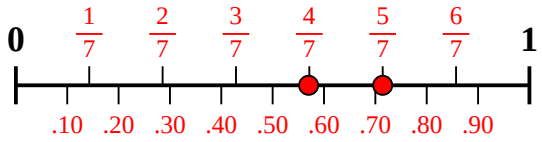

6) ¿Qué cantidad es mayor, $^{4}/_{7}$ o 0.75?

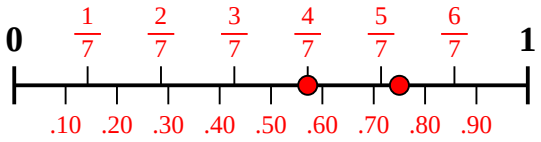

7) ¿Qué cantidad es mayor, $^{3}/_{9}$ o 0.15?

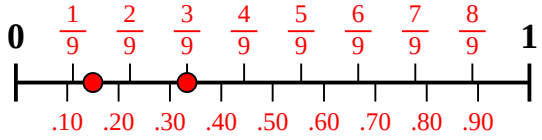

8) ¿Qué cantidad es mayor, $^{3}/_{4}$ o 0.9?

9) ¿Qué cantidad es mayor, $^{7}/_{9}$ o 0.89?

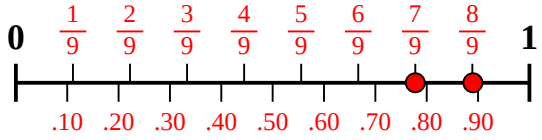

10) ¿Qué cantidad es mayor, $^{3}/_{10}$ o 0.15?

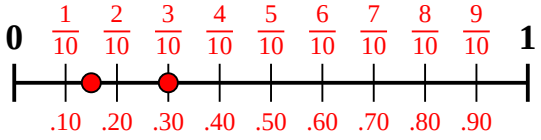

Respuestas

1. $^{2}/_{6}$
2. 0.52
3. $^{3}/_{5}$
4. 0.87
5. $^{5}/_{7}$
6. 0.75
7. $^{3}/_{9}$
8. 0.9
9. 0.89
10. $^{3}/_{10}$

1-10	90	80	70	60	50	40	30	20	10	0

Comparar fracciones con decimales en una recta numérica Nombre:

Usa la recta numérica para resolver cada problema.

1) ¿Qué cantidad es mayor, $^{2}/_{9}$ o 0.36?

2) ¿Qué cantidad es mayor, $^{1}/_{3}$ o 0.43?

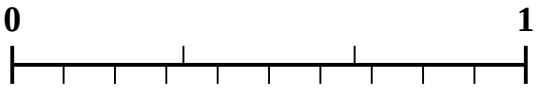

3) ¿Qué cantidad es mayor, $^{1}/_{5}$ o 0.35?

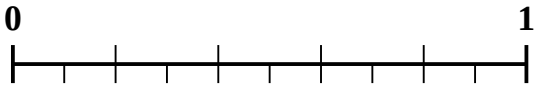

4) ¿Qué cantidad es mayor, $^{2}/_{8}$ o 0.36?

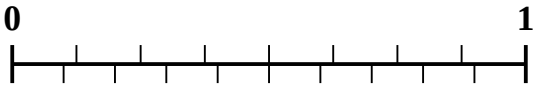

5) ¿Qué cantidad es mayor, $^{4}/_{6}$ o 0.57?

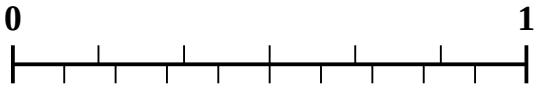

6) ¿Qué cantidad es mayor, $^{3}/_{9}$ o 0.15?

7) ¿Qué cantidad es mayor, $^{3}/_{8}$ o 0.49?

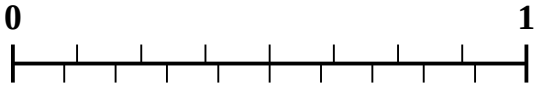

8) ¿Qué cantidad es mayor, $^{3}/_{5}$ o 0.71?

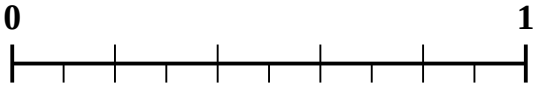

9) ¿Qué cantidad es mayor, $^{1}/_{2}$ o 0.64?

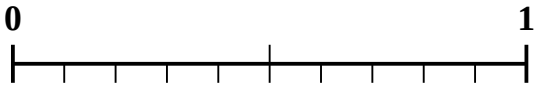

10) ¿Qué cantidad es mayor, $^{6}/_{9}$ o 0.52?

Respuestas

1. _____
2. _____
3. _____
4. _____
5. _____
6. _____
7. _____
8. _____
9. _____
10. _____

1-10	90	80	70	60	50	40	30	20	10	0

Usa la recta numérica para resolver cada problema.

1) ¿Qué cantidad es mayor, $^{2}/_{9}$ o 0.36?

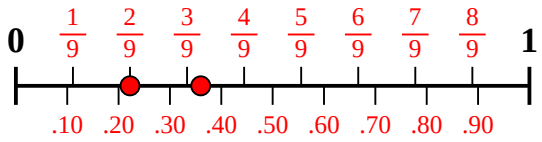

2) ¿Qué cantidad es mayor, $^{1}/_{3}$ o 0.43?

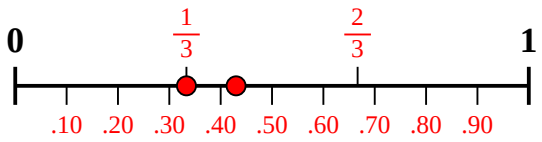

3) ¿Qué cantidad es mayor, $^{1}/_{5}$ o 0.35?

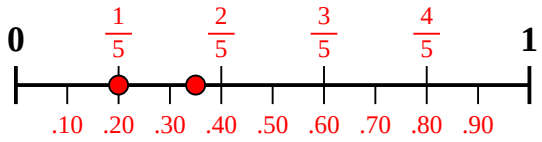

4) ¿Qué cantidad es mayor, $^{2}/_{8}$ o 0.36?

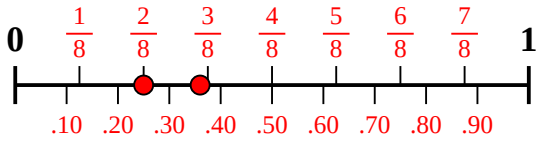

5) ¿Qué cantidad es mayor, $^{4}/_{6}$ o 0.57?

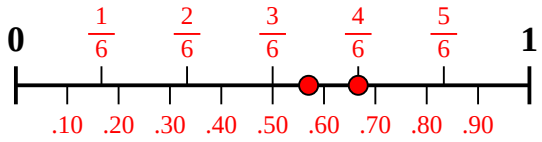

6) ¿Qué cantidad es mayor, $^{3}/_{9}$ o 0.15?

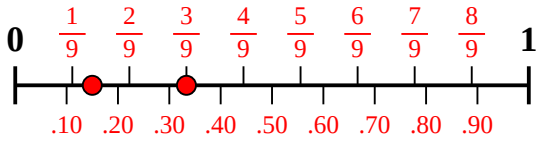

7) ¿Qué cantidad es mayor, $^{3}/_{8}$ o 0.49?

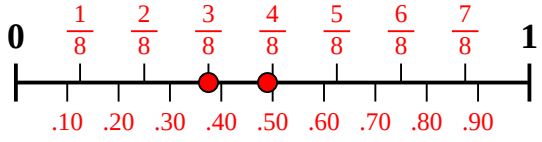

8) ¿Qué cantidad es mayor, $^{3}/_{5}$ o 0.71?

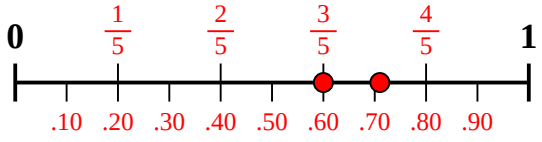

9) ¿Qué cantidad es mayor, $^{1}/_{2}$ o 0.64?

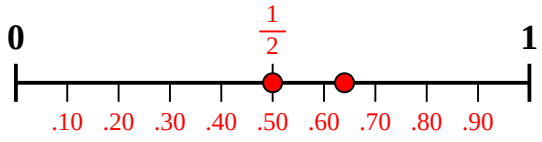

10) ¿Qué cantidad es mayor, $^{6}/_{9}$ o 0.52?

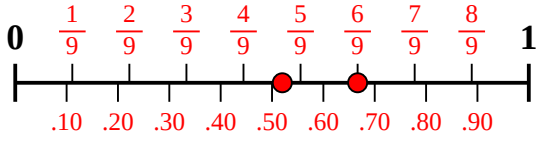

Respuestas

1. **0.36**
2. **0.43**
3. **0.35**
4. **0.36**
5. **$^{4}/_{6}$**
6. **$^{3}/_{9}$**
7. **0.49**
8. **0.71**
9. **0.64**
10. **$^{6}/_{9}$**

1-10	90	80	70	60	50	40	30	20	10	0

Comparar fracciones con decimales en una recta numérica Nombre:

Usa la recta numérica para resolver cada problema.

1) ¿Qué cantidad es mayor, $^{6}/_{10}$ o 0.47?

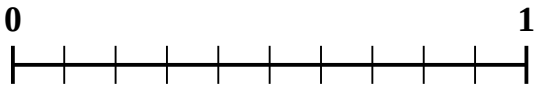

2) ¿Qué cantidad es mayor, $^{3}/_{4}$ o 0.89?

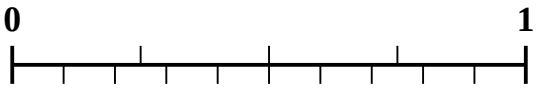

3) ¿Qué cantidad es mayor, $^{5}/_{10}$ o 0.6?

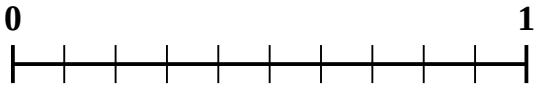

4) ¿Qué cantidad es mayor, $^{7}/_{8}$ o 0.78?

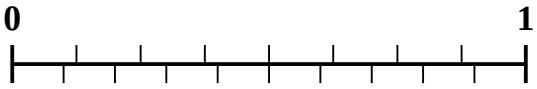

5) ¿Qué cantidad es mayor, $^{1}/_{3}$ o 0.19?

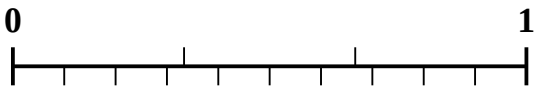

6) ¿Qué cantidad es mayor, $^{2}/_{6}$ o 0.44?

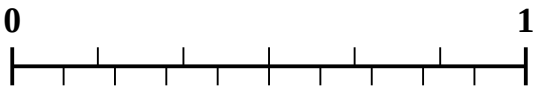

7) ¿Qué cantidad es mayor, $^{3}/_{5}$ o 0.43?

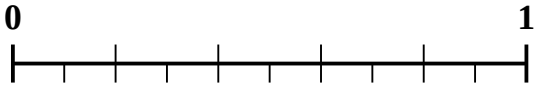

8) ¿Qué cantidad es mayor, $^{2}/_{5}$ o 0.56?

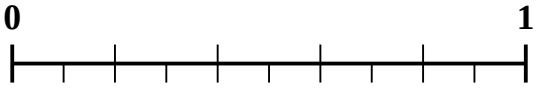

9) ¿Qué cantidad es mayor, $^{4}/_{5}$ o 0.69?

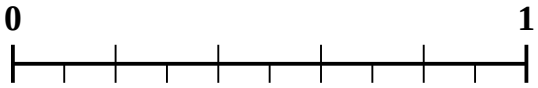

10) ¿Qué cantidad es mayor, $^{1}/_{2}$ o 0.6?

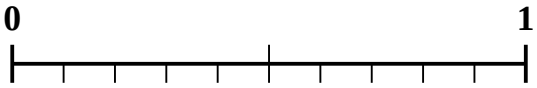

Respuestas

1. _____
2. _____
3. _____
4. _____
5. _____
6. _____
7. _____
8. _____
9. _____
10. _____

1-10	90	80	70	60	50	40	30	20	10	0

Comparar fracciones con decimales en una recta numérica Nombre: **Clave De Respuestas**

Usa la recta numérica para resolver cada problema.

1) ¿Qué cantidad es mayor, $^{6}/_{10}$ o 0.47?

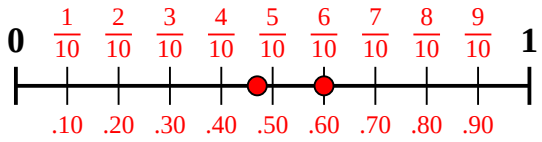

2) ¿Qué cantidad es mayor, $^{3}/_{4}$ o 0.89?

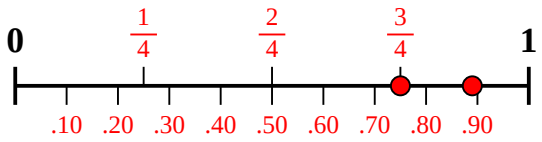

3) ¿Qué cantidad es mayor, $^{5}/_{10}$ o 0.6?

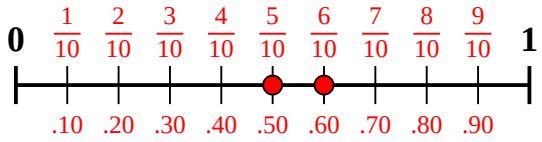

4) ¿Qué cantidad es mayor, $^{7}/_{8}$ o 0.78?

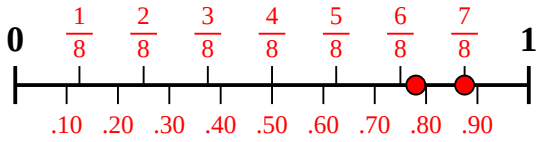

5) ¿Qué cantidad es mayor, $^{1}/_{3}$ o 0.19?

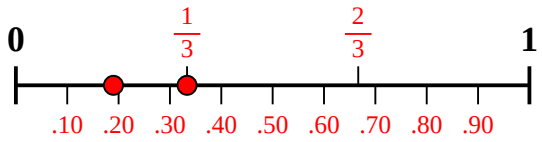

6) ¿Qué cantidad es mayor, $^{2}/_{6}$ o 0.44?

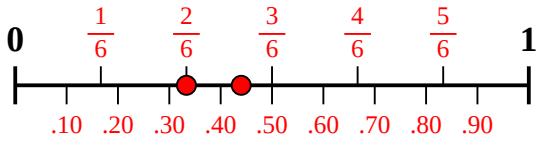

7) ¿Qué cantidad es mayor, $^{3}/_{5}$ o 0.43?

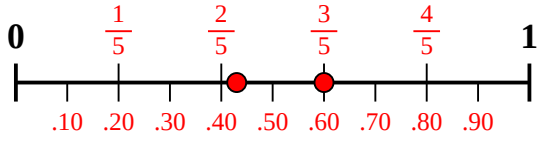

8) ¿Qué cantidad es mayor, $^{2}/_{5}$ o 0.56?

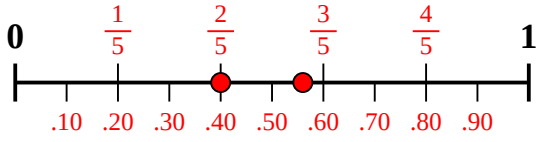

9) ¿Qué cantidad es mayor, $^{4}/_{5}$ o 0.69?

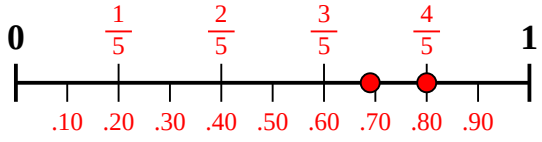

10) ¿Qué cantidad es mayor, $^{1}/_{2}$ o 0.6?

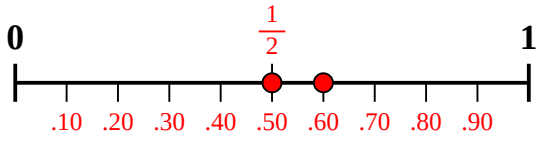

Respuestas

1. $^{6}/_{10}$
2. **0.89**
3. **0.6**
4. $^{7}/_{8}$
5. $^{1}/_{3}$
6. **0.44**
7. $^{3}/_{5}$
8. **0.56**
9. $^{4}/_{5}$
10. **0.6**

1-10	90	80	70	60	50	40	30	20	10	0

Comparar fracciones con decimales en una recta numérica Nombre:

Usa la recta numérica para resolver cada problema.

1) ¿Qué cantidad es mayor, $^{5}/_{7}$ o 0.6?

2) ¿Qué cantidad es mayor, $^{3}/_{7}$ o 0.24?

3) ¿Qué cantidad es mayor, $^{4}/_{8}$ o 0.4?

4) ¿Qué cantidad es mayor, $^{1}/_{4}$ o 0.4?

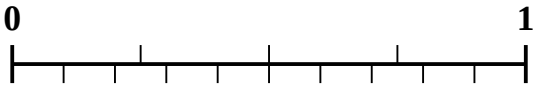

5) ¿Qué cantidad es mayor, $^{1}/_{3}$ o 0.49?

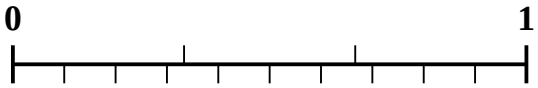

6) ¿Qué cantidad es mayor, $^{2}/_{3}$ o 0.79?

7) ¿Qué cantidad es mayor, $^{6}/_{10}$ o 0.42?

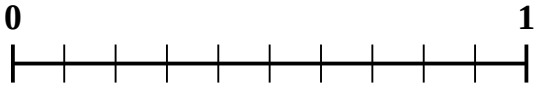

8) ¿Qué cantidad es mayor, $^{3}/_{4}$ o 0.9?

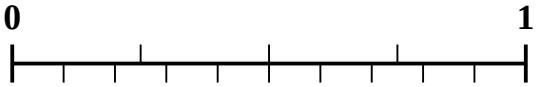

9) ¿Qué cantidad es mayor, $^{7}/_{8}$ o 0.75?

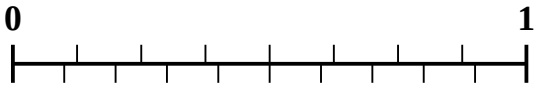

10) ¿Qué cantidad es mayor, $^{1}/_{2}$ o 0.33?

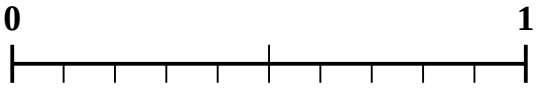

Respuestas

1. _____
2. _____
3. _____
4. _____
5. _____
6. _____
7. _____
8. _____
9. _____
10. _____

1-10	90	80	70	60	50	40	30	20	10	0

Comparar fracciones con decimales en una recta numérica Nombre: **Clave De Respuestas**

Usa la recta numérica para resolver cada problema.

1) ¿Qué cantidad es mayor, $^{5}/_{7}$ o 0.6?

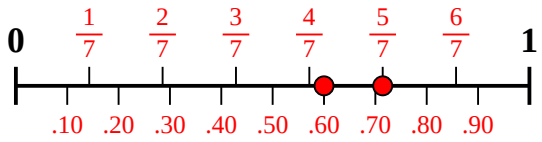

2) ¿Qué cantidad es mayor, $^{3}/_{7}$ o 0.24?

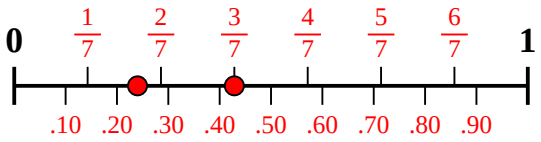

3) ¿Qué cantidad es mayor, $^{4}/_{8}$ o 0.4?

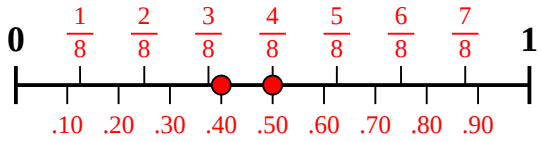

4) ¿Qué cantidad es mayor, $^{1}/_{4}$ o 0.4?

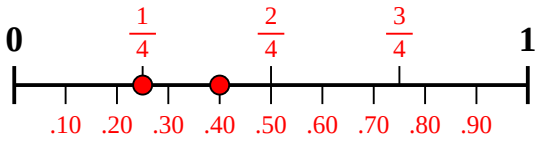

5) ¿Qué cantidad es mayor, $^{1}/_{3}$ o 0.49?

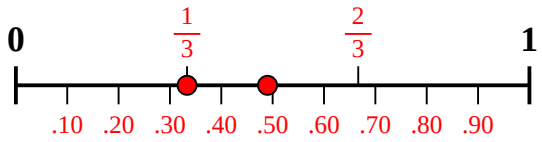

6) ¿Qué cantidad es mayor, $^{2}/_{3}$ o 0.79?

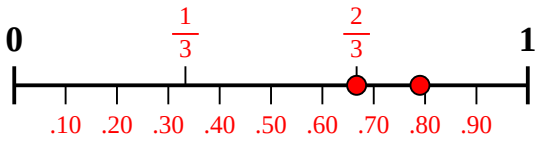

7) ¿Qué cantidad es mayor, $^{6}/_{10}$ o 0.42?

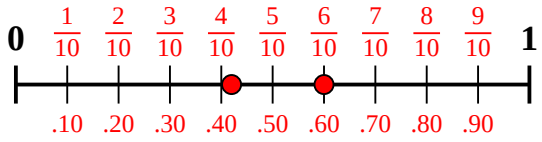

8) ¿Qué cantidad es mayor, $^{3}/_{4}$ o 0.9?

9) ¿Qué cantidad es mayor, $^{7}/_{8}$ o 0.75?

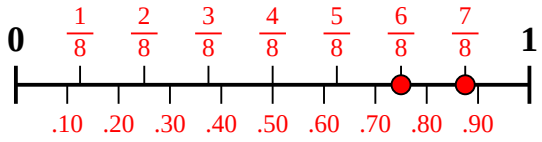

10) ¿Qué cantidad es mayor, $^{1}/_{2}$ o 0.33?

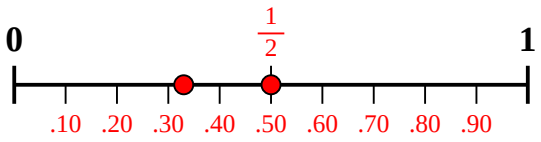

Respuestas

1. $^{5}/_{7}$
2. $^{3}/_{7}$
3. $^{4}/_{8}$
4. **0.4**
5. **0.49**
6. **0.79**
7. $^{6}/_{10}$
8. **0.9**
9. $^{7}/_{8}$
10. $^{1}/_{2}$

1-10	90	80	70	60	50	40	30	20	10	0

Comparar fracciones con decimales en una recta numérica Nombre:

Usa la recta numérica para resolver cada problema.

1) ¿Qué cantidad es mayor, $^{4}/_{8}$ o 0.35?

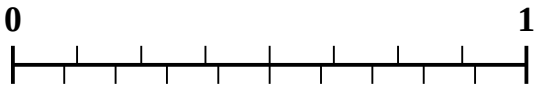

2) ¿Qué cantidad es mayor, $^{1}/_{3}$ o 0.18?

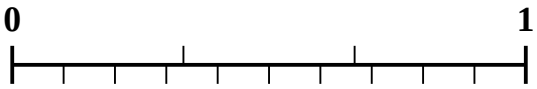

3) ¿Qué cantidad es mayor, $^{2}/_{5}$ o 0.56?

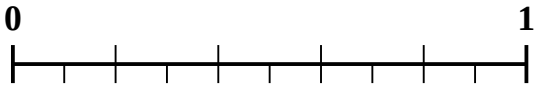

4) ¿Qué cantidad es mayor, $^{7}/_{10}$ o 0.53?

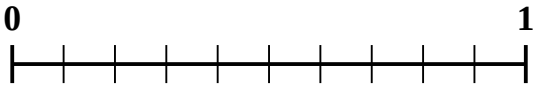

5) ¿Qué cantidad es mayor, $^{1}/_{2}$ o 0.64?

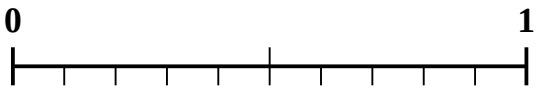

6) ¿Qué cantidad es mayor, $^{6}/_{9}$ o 0.57?

7) ¿Qué cantidad es mayor, $^{3}/_{7}$ o 0.24?

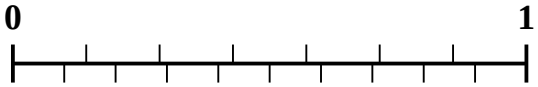

8) ¿Qué cantidad es mayor, $^{3}/_{8}$ o 0.24?

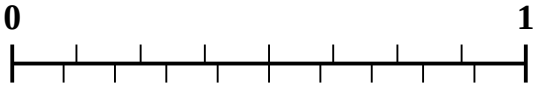

9) ¿Qué cantidad es mayor, $^{2}/_{3}$ o 0.85?

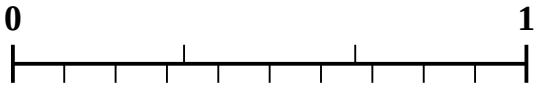

10) ¿Qué cantidad es mayor, $^{2}/_{9}$ o 0.11?

Respuestas

1. _____
2. _____
3. _____
4. _____
5. _____
6. _____
7. _____
8. _____
9. _____
10. _____

1-10	90	80	70	60	50	40	30	20	10	0

Comparar fracciones con decimales en una recta numérica Nombre: **Clave De Respuestas**

Usa la recta numérica para resolver cada problema.

1) ¿Qué cantidad es mayor, $^{4}/_{8}$ o 0.35?

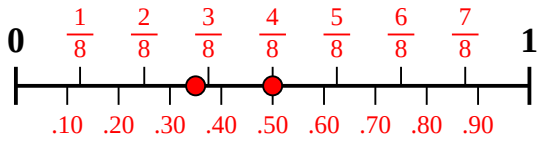

2) ¿Qué cantidad es mayor, $^{1}/_{3}$ o 0.18?

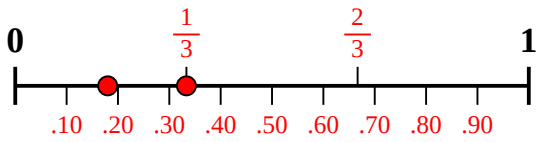

3) ¿Qué cantidad es mayor, $^{2}/_{5}$ o 0.56?

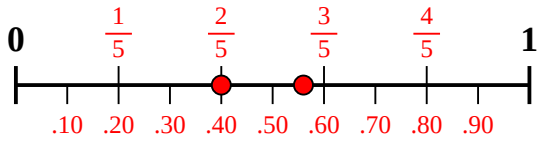

4) ¿Qué cantidad es mayor, $^{7}/_{10}$ o 0.53?

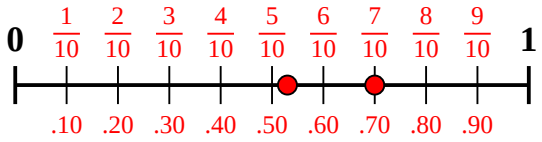

5) ¿Qué cantidad es mayor, $^{1}/_{2}$ o 0.64?

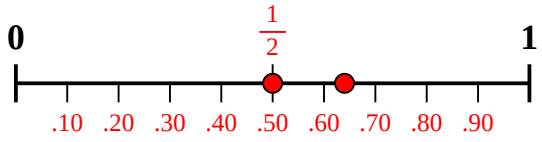

6) ¿Qué cantidad es mayor, $^{6}/_{9}$ o 0.57?

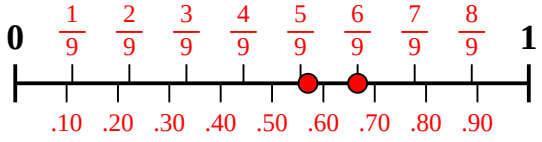

7) ¿Qué cantidad es mayor, $^{3}/_{7}$ o 0.24?

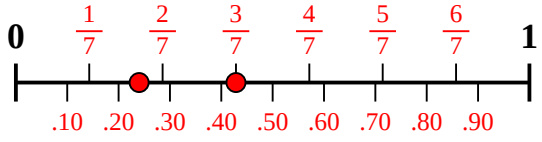

8) ¿Qué cantidad es mayor, $^{3}/_{8}$ o 0.24?

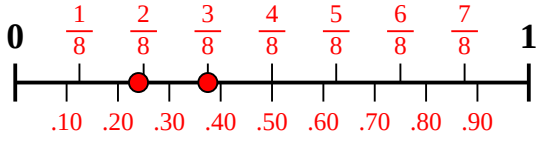

9) ¿Qué cantidad es mayor, $^{2}/_{3}$ o 0.85?

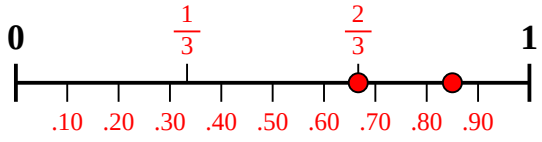

10) ¿Qué cantidad es mayor, $^{2}/_{9}$ o 0.11?

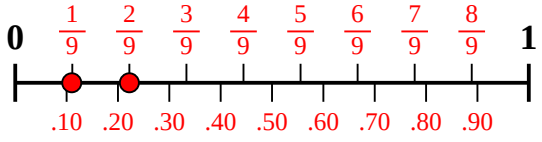

Respuestas

1. $^{4}/_{8}$
2. $^{1}/_{3}$
3. **0.56**
4. $^{7}/_{10}$
5. **0.64**
6. $^{6}/_{9}$
7. $^{3}/_{7}$
8. $^{3}/_{8}$
9. **0.85**
10. $^{2}/_{9}$

1-10	90	80	70	60	50	40	30	20	10	0

Comparar fracciones con decimales en una recta numérica Nombre:

Usa la recta numérica para resolver cada problema.

1) ¿Qué cantidad es mayor, $^{3}/_{7}$ o 0.23?

2) ¿Qué cantidad es mayor, $^{2}/_{3}$ o 0.82?

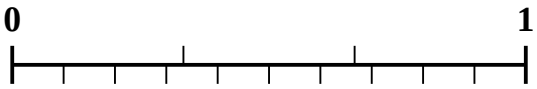

3) ¿Qué cantidad es mayor, $^{1}/_{2}$ o 0.61?

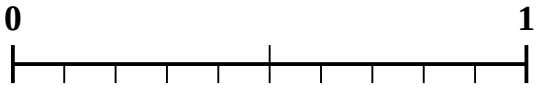

4) ¿Qué cantidad es mayor, $^{4}/_{6}$ o 0.77?

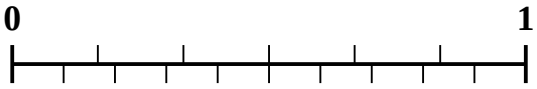

5) ¿Qué cantidad es mayor, $^{6}/_{7}$ o 0.73?

6) ¿Qué cantidad es mayor, $^{2}/_{4}$ o 0.6?

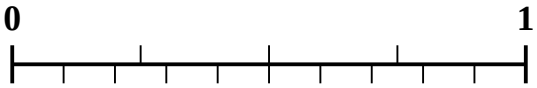

7) ¿Qué cantidad es mayor, $^{3}/_{4}$ o 0.88?

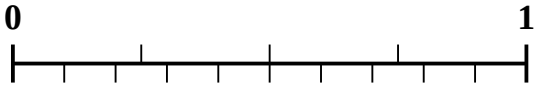

8) ¿Qué cantidad es mayor, $^{3}/_{10}$ o 0.14?

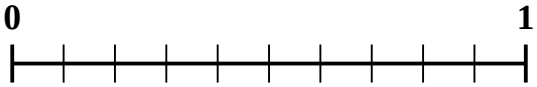

9) ¿Qué cantidad es mayor, $^{3}/_{8}$ o 0.19?

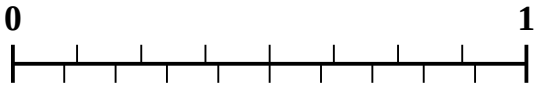

10) ¿Qué cantidad es mayor, $^{5}/_{8}$ o 0.83?

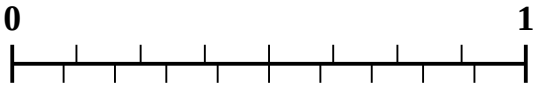

Respuestas

1. _____
2. _____
3. _____
4. _____
5. _____
6. _____
7. _____
8. _____
9. _____
10. _____

1-10	90	80	70	60	50	40	30	20	10	0

Usa la recta numérica para resolver cada problema.

1) ¿Qué cantidad es mayor, $^{3}/_{7}$ o 0.23?

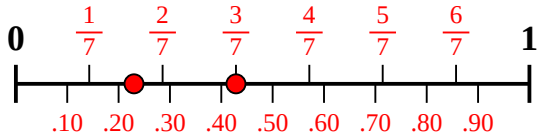

2) ¿Qué cantidad es mayor, $^{2}/_{3}$ o 0.82?

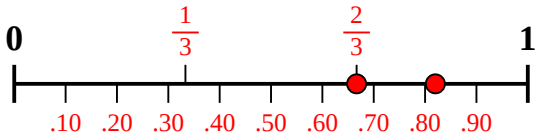

3) ¿Qué cantidad es mayor, $^{1}/_{2}$ o 0.61?

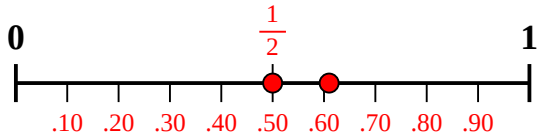

4) ¿Qué cantidad es mayor, $^{4}/_{6}$ o 0.77?

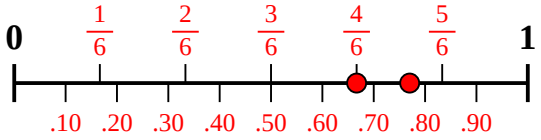

5) ¿Qué cantidad es mayor, $^{6}/_{7}$ o 0.73?

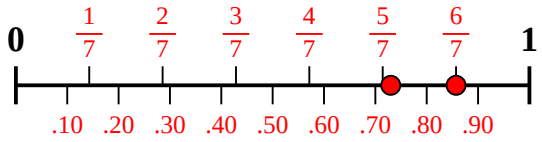

6) ¿Qué cantidad es mayor, $^{2}/_{4}$ o 0.6?

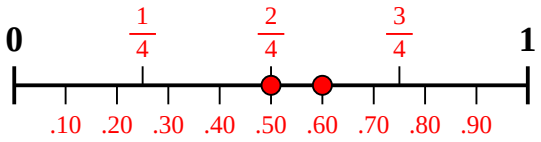

7) ¿Qué cantidad es mayor, $^{3}/_{4}$ o 0.88?

8) ¿Qué cantidad es mayor, $^{3}/_{10}$ o 0.14?

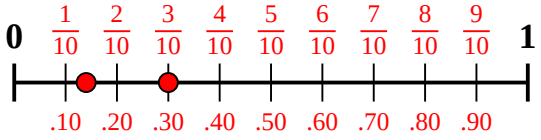

9) ¿Qué cantidad es mayor, $^{3}/_{8}$ o 0.19?

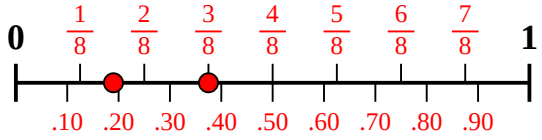

10) ¿Qué cantidad es mayor, $^{5}/_{8}$ o 0.83?

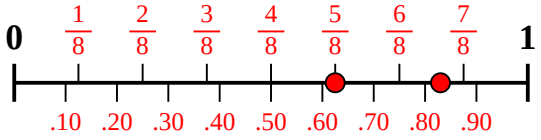

Respuestas

1. $^{3}/_{7}$
2. **0.82**
3. **0.61**
4. **0.77**
5. $^{6}/_{7}$
6. **0.6**
7. **0.88**
8. $^{3}/_{10}$
9. $^{3}/_{8}$
10. **0.83**

1-10	90	80	70	60	50	40	30	20	10	0

Comparar fracciones con decimales en una recta numérica Nombre:

Usa la recta numérica para resolver cada problema.

1) ¿Qué cantidad es mayor, $^{2}/_{3}$ o 0.82?

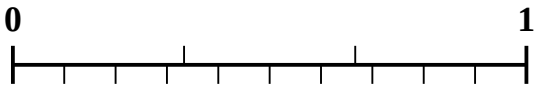

2) ¿Qué cantidad es mayor, $^{4}/_{6}$ o 0.54?

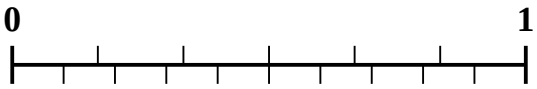

3) ¿Qué cantidad es mayor, $^{6}/_{8}$ o 0.62?

4) ¿Qué cantidad es mayor, $^{1}/_{2}$ o 0.68?

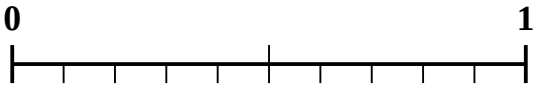

5) ¿Qué cantidad es mayor, $^{1}/_{9}$ o 0.26?

6) ¿Qué cantidad es mayor, $^{3}/_{8}$ o 0.52?

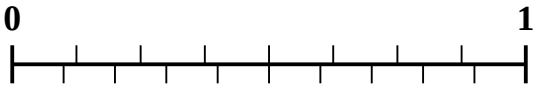

7) ¿Qué cantidad es mayor, $^{2}/_{5}$ o 0.56?

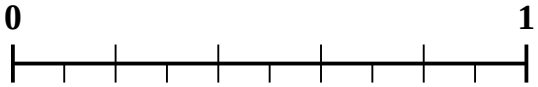

8) ¿Qué cantidad es mayor, $^{3}/_{4}$ o 0.86?

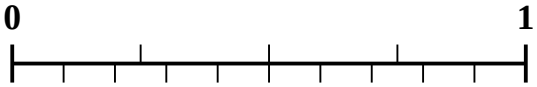

9) ¿Qué cantidad es mayor, $^{1}/_{4}$ o 0.14?

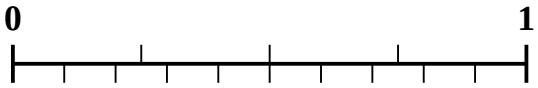

10) ¿Qué cantidad es mayor, $^{2}/_{4}$ o 0.68?

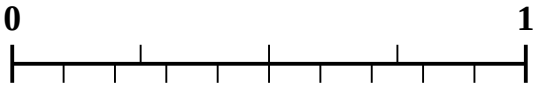

Respuestas

1. _____
2. _____
3. _____
4. _____
5. _____
6. _____
7. _____
8. _____
9. _____
10. _____

1-10	90	80	70	60	50	40	30	20	10	0

Comparar fracciones con decimales en una recta numérica Nombre: **Clave De Respuestas**

Usa la recta numérica para resolver cada problema.

1) ¿Qué cantidad es mayor, $^{2}/_{3}$ o 0.82?

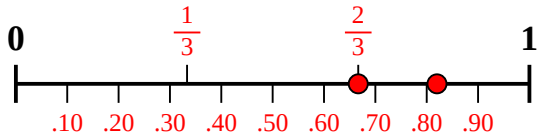

2) ¿Qué cantidad es mayor, $^{4}/_{6}$ o 0.54?

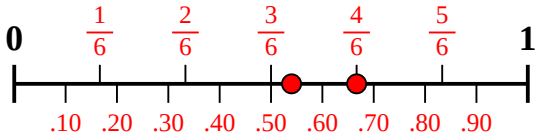

3) ¿Qué cantidad es mayor, $^{6}/_{8}$ o 0.62?

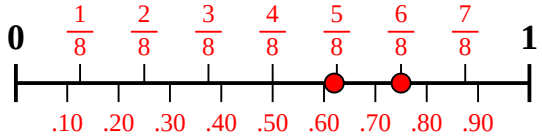

4) ¿Qué cantidad es mayor, $^{1}/_{2}$ o 0.68?

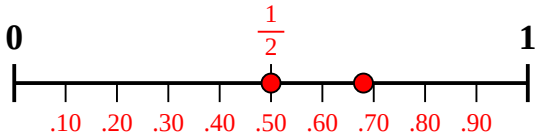

5) ¿Qué cantidad es mayor, $^{1}/_{9}$ o 0.26?

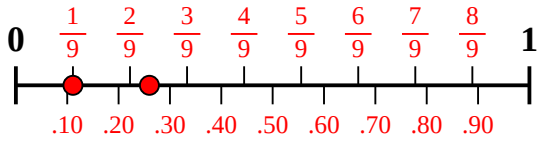

6) ¿Qué cantidad es mayor, $^{3}/_{8}$ o 0.52?

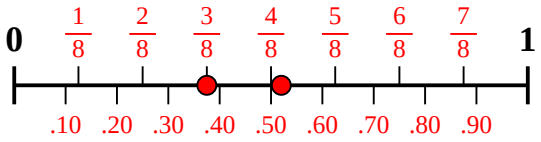

7) ¿Qué cantidad es mayor, $^{2}/_{5}$ o 0.56?

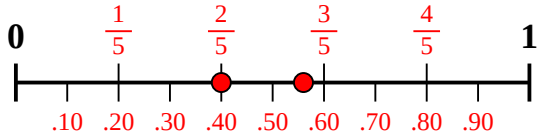

8) ¿Qué cantidad es mayor, $^{3}/_{4}$ o 0.86?

9) ¿Qué cantidad es mayor, $^{1}/_{4}$ o 0.14?

10) ¿Qué cantidad es mayor, $^{2}/_{4}$ o 0.68?

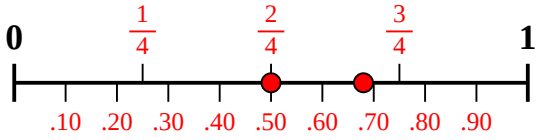

Respuestas

1. **0.82**
2. **$^{4}/_{6}$**
3. **$^{6}/_{8}$**
4. **0.68**
5. **0.26**
6. **0.52**
7. **0.56**
8. **0.86**
9. **$^{1}/_{4}$**
10. **0.68**

1-10	90	80	70	60	50	40	30	20	10	0

Comparar fracciones con decimales en una recta numérica Nombre:

Usa la recta numérica para resolver cada problema.

1) ¿Qué cantidad es mayor, $^{4}/_{10}$ o 0.58?

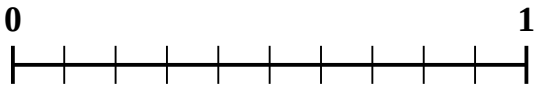

2) ¿Qué cantidad es mayor, $^{2}/_{6}$ o 0.52?

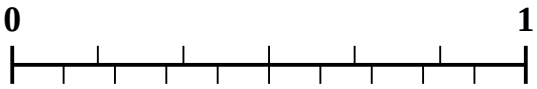

3) ¿Qué cantidad es mayor, $^{4}/_{5}$ o 0.65?

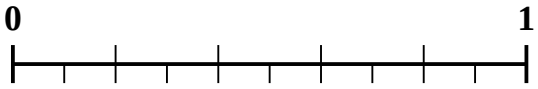

4) ¿Qué cantidad es mayor, $^{6}/_{7}$ o 0.66?

5) ¿Qué cantidad es mayor, $^{6}/_{9}$ o 0.77?

6) ¿Qué cantidad es mayor, $^{2}/_{3}$ o 0.8?

7) ¿Qué cantidad es mayor, $^{2}/_{4}$ o 0.69?

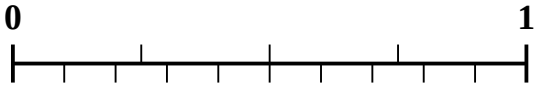

8) ¿Qué cantidad es mayor, $^{1}/_{4}$ o 0.35?

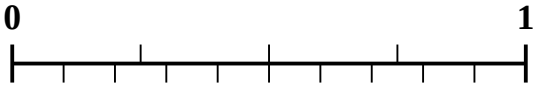

9) ¿Qué cantidad es mayor, $^{6}/_{10}$ o 0.7?

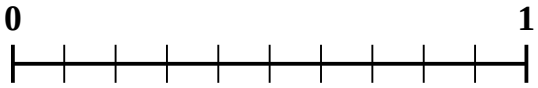

10) ¿Qué cantidad es mayor, $^{1}/_{2}$ o 0.32?

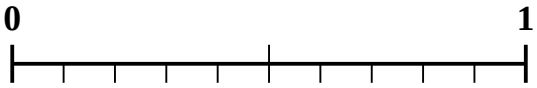

Respuestas

1. _____
2. _____
3. _____
4. _____
5. _____
6. _____
7. _____
8. _____
9. _____
10. _____

1-10	90	80	70	60	50	40	30	20	10	0

Comparar fracciones con decimales en una recta numérica Nombre: **Clave De Respuestas**

Usa la recta numérica para resolver cada problema.

1) ¿Qué cantidad es mayor, $^{4}/_{10}$ o 0.58?

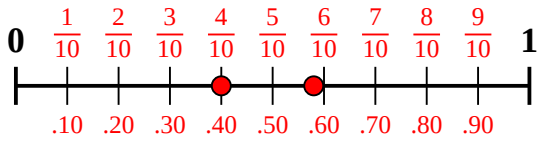

2) ¿Qué cantidad es mayor, $^{2}/_{6}$ o 0.52?

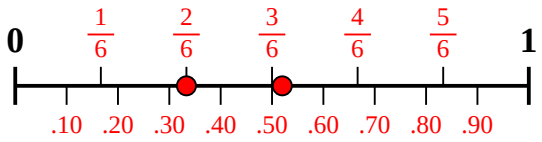

3) ¿Qué cantidad es mayor, $^{4}/_{5}$ o 0.65?

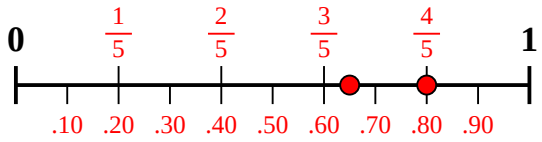

4) ¿Qué cantidad es mayor, $^{6}/_{7}$ o 0.66?

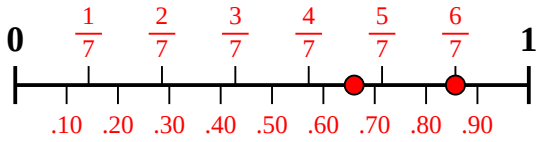

5) ¿Qué cantidad es mayor, $^{6}/_{9}$ o 0.77?

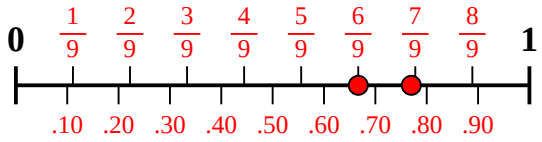

6) ¿Qué cantidad es mayor, $^{2}/_{3}$ o 0.8?

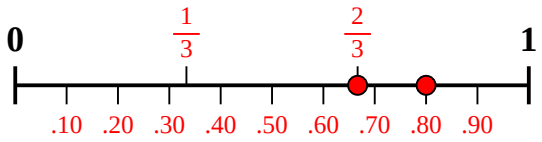

7) ¿Qué cantidad es mayor, $^{2}/_{4}$ o 0.69?

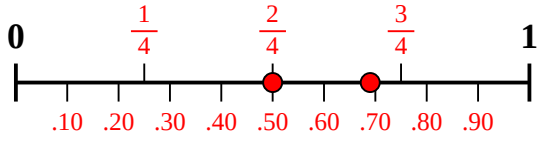

8) ¿Qué cantidad es mayor, $^{1}/_{4}$ o 0.35?

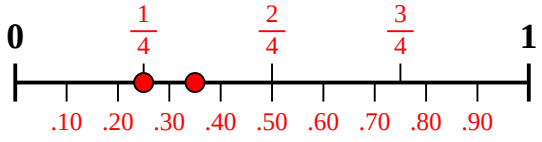

9) ¿Qué cantidad es mayor, $^{6}/_{10}$ o 0.7?

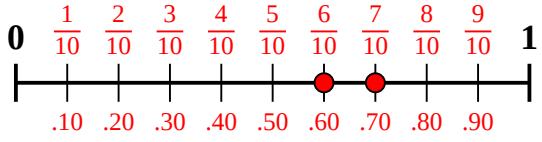

10) ¿Qué cantidad es mayor, $^{1}/_{2}$ o 0.32?

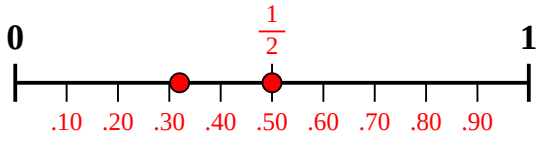

Respuestas

1. **0.58**
2. **0.52**
3. **$^{4}/_{5}$**
4. **$^{6}/_{7}$**
5. **0.77**
6. **0.8**
7. **0.69**
8. **0.35**
9. **0.7**
10. **$^{1}/_{2}$**

1-10	90	80	70	60	50	40	30	20	10	0